MODERN FİZİK
I

SALINIMLAR

Eşit zaman aralıkları ile kendini tekrarlayan hareketlere periyodik (harmonik) hareket denir. Bir parçacık periyodik hareket içerisinde aynı yörüngede ileri-geri yer değiştiriyorsa, salınım veya titreşim hareketi yapıyor denir.

BHH

Bir parçacığın denge konumu etrafında $U(x) = \frac{1}{2}kx^2$ * potansiyel fonksiyonundan türeyen kuvvetin etkisi altında ileri geri hareket ettiğini düşünelim.

Bu durumda,

(Temel şart): $F(x) = -\frac{dU}{dx} = -kx$ olur ve parçacık BHH yapıyor denir.

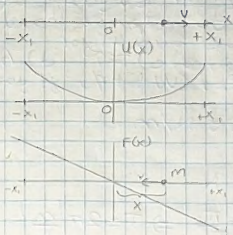

Böyle bir hareket Newton'un 2. kanunu uygulanırsa;

$$F = ma$$

$$-kx = m\frac{d^2x}{dt^2} \Rightarrow \frac{d^2x}{dt^2} + \frac{k}{m}x = 0$$

olur. Bir fonksiyonun (-)'si türetilmesinin aynı fonksiyonun 2. türevine eşit olmasından faydalanırsak;

$$x = A\cos(\omega t + \phi)$$ yazarız.

Bu eşitliğin iki kez türevini alıp $\frac{d^2x}{dt^2}$'de yerine koyarsak $\omega^2 = \frac{k}{m}$ eşitliğini buluruz.

$$T = \frac{2\pi}{\omega} = 2\pi\sqrt{\frac{m}{k}} \qquad \omega = 2\pi\nu = \sqrt{\frac{k}{m}}$$

Burada A: genlik, ϕ: Başlangıç fazı, ω: Açısal hız.

BHH için; $x = A\cos(\omega t + \phi)$

$V = \frac{dx}{dt} = -\omega A\sin(\omega t + \phi)$

$a = \frac{d^2x}{dt^2} = -\omega^2 A\cos(\omega t + \phi)$ dir.

$V_{max} = A\omega$ $\quad a_{max} = -\omega^2 A$ Buradan $\frac{x^2}{A^2} + \frac{V^2}{A^2\omega^2} = 1$

BHH'de Enerji:

$$E = E_k + U = \frac{1}{2}kx^2 + \frac{1}{2}mv^2 = \frac{1}{2}kA^2 = \frac{1}{2}mV_{max}^2$$

Örnekler:

① 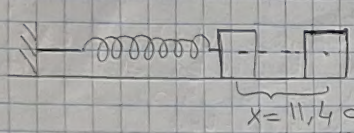

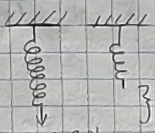

Şekildeki yay üzerine 3,3 N'luk bir kuvvet etkidiğinde denge'den itibaren 8,4 cm uzuyor. Bu yayın ucuna 0,75 kg'lık cisim takılıyor yay denge konumundan itibaren 11,4 cm çekiliyor ve bırakılıyor.

a) k=? b) t=0'da F=? (Bırakıldığında) c) T=? d) A=?
e) V_{max}=? f) a_{max}=? g) $x = A\cos(\omega t + \phi)$'yi yaz

a) $F = -kx \Rightarrow k = \frac{F}{x} = \frac{3,3}{8,4 \cdot 10^{-2}} = 39\ N/m$

b) $F = -kx = 39 \cdot 11,4 \cdot 10^{-2} = 4,5\ N$

c) $\omega^2 = \frac{k}{m}$ $\omega = \sqrt{\frac{k}{m}} = \frac{2\pi}{T} \Rightarrow T = 2\pi\sqrt{\frac{m}{k}}$

$T = 6,28\sqrt{\frac{0,75}{39}} = 0,87s$

d) $A = 11,4 \cdot 10^{-2} m$

e) V_{max}'ken $x = 0$ $\frac{0}{A^2} + \frac{V_{max}^2}{A^2\omega^2} = 1$

$\omega = \sqrt{\frac{k}{m}} = 7,2\ rad/s$ $\omega^2 A^2 = V_{max}^2 \Rightarrow V_{max} = 7,2 \cdot 11,4 \cdot 10^{-2} = 0,82\ m/s$

f) $a_{max} = \omega^2 x = \omega^2 A = 7,2^2 \cdot 11,4 \cdot 10^{-2} = 5,9\ m/s^2$

g) $x = 11,4 \cdot 10^{-2} \cos(7,2t + 0)$

2)

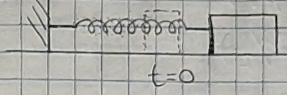

Yayın ucundaki cisim BHH yapmaktadır. $t=0$ anında $x_0 = -8\,cm$, $V_0 = -0,9\,m/s$ ve $a_0 = +50\,m/s^2$ dir.

Bu durumda $\omega, A, \phi = ?$

$a = -\omega^2 x$

$\omega^2 = \frac{50}{8 \cdot 10^{-2}} = 6,3 \cdot 10^2 \Rightarrow \omega = 25\ rad/s$

$\frac{\omega^2 x^2}{\omega^2 A^2} + \frac{V^2}{A^2 \omega^2} = 1$

$A^2 = \frac{\omega^2 x^2 + V^2}{\omega^2}$

$A = \frac{\sqrt{a \cdot x + V^2}}{\omega} = \frac{\sqrt{6,3 \cdot 10^2 \cdot 64 \cdot 10^{-4} + 0,8}}{25}$

$A = 9\,cm$ //

$x = A\,Cos(\omega t + \phi)$

$Cos\phi = -\frac{8 \cdot 10^{-2}}{9 \cdot 10^{-2}} \Rightarrow \phi = 152 = \frac{152}{180} \cdot \pi$ (radyan anından)

3)



$k = 39\,N/m$

$m = 0,75\,kg$

$x = 11,4 \cdot 10^{-2}\,Cos(7,2t)$

a) Cisim serbest bırakıldığında dengeye göre hareket edenden 2 nokta arasındaki hızı bul

$\frac{1}{4} = \frac{\frac{A^2}{4}}{A^2} + \frac{V^2}{A^2 \omega^2} \Rightarrow \frac{V^2}{A^2 \omega^2} = \frac{3}{4}$ $\quad \frac{V}{A\omega} = \frac{\sqrt{3}}{2}$

$V = \frac{1,7}{2} \cdot 11,4 \cdot 10^{-2} \cdot 7,2$

$V = 0,7\,m/s$

b) $x = \frac{A}{2}$ iken $E_k = ?$ $\quad V = ?$

$E = \frac{1}{2} k A^2 = \frac{1}{2} 39 (11,4 \cdot 10^{-2})^2 = 2,53 \cdot 10^{-1}\ J$

$U = \frac{1}{2} k \frac{A^2}{4} = 6,3 \cdot 10^{-2}\ J$ $\quad E_k = E - U = 1,9 \cdot 10\ J$

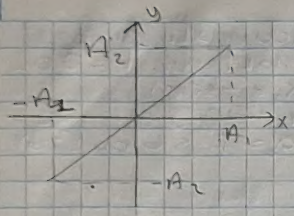

$x = A_1 \cos(\omega t + \phi_1)$

$y = A_2 \cos(\omega t + \phi_2)$

$\phi_1 = \phi_2$ ve $\omega_1 = \omega_2$ olsun

$\frac{x}{y} = \frac{A_1}{A_2} \Rightarrow y = \frac{A_2}{A_1} x$

Eğer $\omega_1 = \omega_2$ ve $\phi_1 - \phi_2 = \frac{\pi}{2}$ olursa

$x = A_1 \sin \omega t$

$y = A_2 \cos \omega t$

$\frac{x^2}{A_1^2} + \frac{y^2}{A_2^2} = 1$

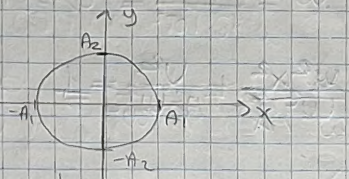

Eğer $A_1 = A_2$ ise çember olur.

Eğer $0 < \phi_1 - \phi_2 < \frac{\pi}{2}$

Şeklindeki elipslerden biri olur.

Sönümlü Harmonik Hareket:

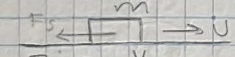

$F_s = -bV$

$\vec{F_s} = -b\vec{V}$

$V = ?$

$m \frac{d^2x}{dt^2} = -b \frac{dx}{dt}$

$m \frac{dV}{dt} = -bV$

$\frac{dV}{V} = -\frac{b}{m} dt \Rightarrow \ln V = -\frac{b}{m} t + c$

$t = 0 \quad V = V_0 \quad \ln V_0 = c$

$\ln \frac{V}{V_0} = -\frac{b}{m} t \Rightarrow \underline{V = V_0 e^{-\frac{b}{m} t}}$

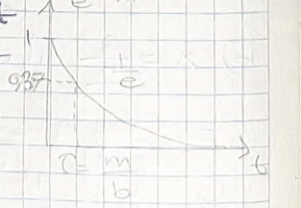



$$m\frac{d^2x}{dt^2} = -bv - kx$$

$$\frac{d^2x}{dt^2} + \frac{b}{m}\frac{dx}{dt} + \underbrace{\frac{k}{m}}_{w_0}x = 0$$

$$\tau = \frac{m}{b} = \frac{kg}{kg\,m/s^2} = \frac{kg}{kg/s} = s$$

$$\frac{d^2x}{dt^2} + \frac{1}{\tau}\frac{dx}{dt} + w_0^2 x = 0$$

$$x = Ae^{-\beta t}(\sin wt + \phi)$$

β, w ?

1 kere türev alıp $\frac{dx}{dt}$'ye 2 kez alıp $\frac{d^2x}{dt^2}$'ye koy.

$$\sin(wt+\phi)\{\ \} + \cos(wt+\phi)\{\ \} = 0$$

$$\beta = \frac{b}{2m} \qquad w^2 = w_0^2 - \frac{b^2}{4m^2}$$

$$x = Ae^{-\frac{b}{2m}t}\sin(wt+\phi)$$

a) $b = 0$ $w = ?$ $x = f(t)$

b) $b > 0$ w ile w_0 arasındaki ilişki

a) $\frac{b^2}{4m^2} \ll w_0^2$ ise $w = w_0$ b) değilse $w < w_0$

c) $b > 0$ $\frac{b^2}{4m^2} > w_0^2$ $x = f(t)$ grafiği nasıl bir sonuç verir

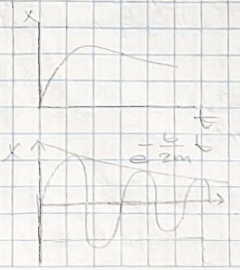

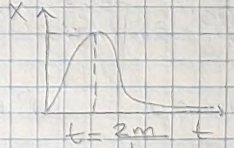

Bu hareketle enerji $E = E_0 e^{-\frac{b}{m}t}$ Enerji için $\tau = \frac{m}{b}$

Titreşen sistemlerde kalite faktörü Q'dan bahsedilir.

$$Q = 2\pi \frac{\text{Sistemde depolanan enerji}}{\text{Bir devirde harcanan enerji}}$$

$$dE = -\frac{b}{m} E_0 e^{-\frac{b}{m}t} dt$$

$$dE = -\frac{b}{m} E_0 e^{-\frac{b}{m}t} T_0 \quad \leftarrow \text{Sönüm yeterince küçükse } w \cong w_0$$

$$Q = 2\pi \frac{E_0 e^{-\frac{b}{m}t}}{-\frac{b}{m} E_0 e^{-\frac{b}{m}t} T_0} = \frac{w_0 m}{b} \qquad Q = \frac{w_0 m}{b} = w_0 \tau$$

$$Q = \frac{EV}{P}$$

$$\frac{b}{m} t = 1 \Rightarrow \frac{w_0 t}{Q} = 1 \Rightarrow \frac{2\pi t}{T_0} = Q$$

$$2\pi \frac{\tau}{T_0} = Q$$

Enerjinin başlangıç değerinin $\frac{1}{e}$'sine düşmesi için geçen zaman daki titreşim sayısı.

Örnekler:

1) 0,3 cm yarıçaplı ve 0,5 g. kütleli bir top yay sabiti 50 dyn/cm olan bir yayın etkisiyle suda hareket etmektedir. Suyun viskozluk katsayısı $\eta = 1 \cdot 10^{-2}$ dyn.s/cm² dir. Sönüşün başlangıç değerinin yarısına düşmesi için geçen zamanda kaç salınım (titreşim) olacağını bul. Q=?, N=1

$b V = 6\pi r \eta v$ $\qquad w^2 = w_0^2 - \frac{b^2}{4m^2}$

$b = 6\pi r \eta$ $\qquad w^2 = \frac{k}{m} - \frac{b^2}{4m^2}$

$b = 6 \cdot 3,14 \cdot 6^2 \cdot 0,3 \cdot 1 \cdot 10^{-2}$

$b = 3,2 \cdot 10^{-2}$ g/s

$$\omega^2 = \frac{50\cdot10^{-3}}{0{,}5\cdot10^{-3}} - \frac{(3{,}2\cdot10^{-3})^2}{4\cdot(0{,}5\cdot10^{-3})} = \sqrt{100-9} \cong 10 \text{ rad/s}$$

$$A = A_0 e^{-\frac{b}{2m}t}$$

$$\frac{A_0}{2} = A_0 e^{-\frac{b}{2m}t} \Rightarrow 2 = e^{\frac{b}{2m}t}$$

$$\ln 2 = \frac{b}{2m}t \qquad N = \frac{t}{T_0} = \frac{2m\ln 2}{bT_0}$$

$$= \frac{2m\ln 2}{b2\pi}\omega_0$$

$$= 20$$

$$Q = \omega_0 \tau = \omega_0 \frac{m}{b} \cong 90$$

2) 0,2 kg. kütleli bir cisim yay sabiti 80 N/m olan bir yayın ucunda asılıdır. Bu cisim hızı V olduğunda $-bV$ ile verilen bir direnç kuvvetine maruz kalıyor.

a) Bu sistemin serbest titreşim hareketinin diferansiyel denklemini yazınız.

b) STH'nin V'si sönümsüz TH'nin V'sinin $\frac{\sqrt{3}}{2}$'si olarak veriliyor

$(\omega = \frac{\sqrt{3}}{2}\omega_0)$ $b = ?$

c) $Q = ?$

Sistem 10 tam titreşim tamamladığında genlikteki küçülme faktörü ne dir

$(C = \frac{A}{A_0} = ?)$

a) $F = ma$ (Newton's second law of motion)

$$m\frac{d^2x}{dt^2} = -kx - bV \Rightarrow 0{,}2\frac{d^2x}{dt^2} = -80x - bv$$

b)

$$\omega^2 = \omega_0^2 - \frac{b^2}{4m^2}$$ olduğunu biliyoruz bu durumda $\left(\frac{\sqrt{3}}{2}\right)^2\omega_0^2 = \omega_0^2 - \frac{b^2}{4m^2}$ ve $\omega_0 = \sqrt{\frac{k}{m}}$

$$100\cdot4\cdot0{,}04 = b^2 \qquad \omega_0 = \sqrt{\frac{80}{0{,}2}} = 20 \text{ rad/s}$$

$b = 4$ kg/s.

c) $Q = \frac{w_0 m}{b} = \frac{20 \cdot 0{,}2}{4} = 1$

$N = 10 = \frac{t}{T_0} = \frac{t}{2\pi \frac{1}{20}} \Rightarrow 20\pi \cdot \frac{1}{20} = t$

$t = \pi s.$

$K = \frac{A}{A_0} = \frac{A_0 e^{-\frac{4}{2 \cdot 0{,}2} \cdot \pi}}{A_0} = 2{,}27 \cdot 10^{-14}$

Zorla Titreşim:

Zorla titreşimde elde edilen w uygulanan kuvvetin frekansıyla aynıdır

Genlik A ise hareket boyunca değişmez

$x = A \sin(wt + \phi)$ ϕ: Yer değiştirmeyle kuvvet arasındaki faz farkıdır.

Veri: $F = F_0 \sin wt$ (Temel Şart) Formülden görüldüğü gibi F'in fazı diğerlerinden farklıdır.

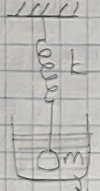

$m\frac{d^2x}{dt^2} + kx + b\frac{dx}{dt} = F_0 \sin wt$

$\frac{d^2x}{dt^2} + \frac{b}{m}\frac{dx}{dt} + \frac{k}{m}x = \frac{F_0}{m}\sin wt$

$\alpha = \frac{F_0}{m}$ $\quad C = \frac{m}{b}$ $\quad w_0^2 = \frac{k}{m}$

$\frac{d^2x}{dt^2} + \frac{1}{C}\cdot\frac{dx}{dt} + w_0^2 x = \alpha \sin wt$

denklemin çözümü $x = X_0 \sin(wt + \phi)$ şeklindedir.

Buradan X_0 ve ϕ'yi belirlemeliyiz. Bunu bir defa türevini alıp ilk eşitlikte, 2 defa alıp yine aynı eşitlikte yerine koyup düzenledikten sonra şunu elde edeceğiz.

$\left[(w_0^2 - w^2)\cos\phi - \frac{w}{C}\sin\phi\right] X_0 \sin wt -$

$\left[(w_0^2 - w^2)\sin\phi + \frac{w}{C}\cos\phi\right] X_0 \cos wt = \alpha \sin wt$

Buradan $tg\phi = \frac{-w/c}{w_0^2 - w^2}$ olur

Ayrıca; $x_0 = \frac{\alpha}{\{(w_0^2 - w^2)\cos\phi - \frac{w}{c}\sin\phi\}}$

Burada ϕ'ler faldrafın bunun için cos ve sin yerine tg cinsinden değerlerini koyarsak

$$x_0 = \frac{F_0/m}{[(w_0^2 - w^2)^2 + (w/c)^2]^{\frac{1}{2}}}$$

$$\cos\theta = \frac{1}{\sqrt{1+tg^2\theta}} \quad \text{ve} \quad \sin\theta = \frac{tg\theta}{\sqrt{1+tg^2\theta}}$$

$$\cos\phi = \frac{w_0^2 - w^2}{[(w_0^2 - w^2)^2 + (\frac{w}{c})^2]^{\frac{1}{2}}}$$

$$\sin\phi = \frac{-w/c}{[(w_0^2 - w^2)^2 + \frac{w^2}{c^2}]^{\frac{1}{2}}}$$

Bu durumda;

a) $w \ll w_0$

$\phi = 0 \qquad x_0 = \frac{F_0}{m w_0^2} \longrightarrow x_0 = \frac{F_0}{k}$. yay için

b) Rezonans durumu; Bu olay iki titreşim sistemi olacak. Bunların birinden diğerine enerji aktarımı olursa bu $w = w_0$ durumunda max. dur.

① x_0 ne zaman max olur?

$$\frac{dx_0}{dw} = 0 \longrightarrow w = w_0^2\left(1 + \frac{1}{2Q^2}\right)$$



Max genlik w_0'ın biraz altındadır.

Ortalama güç bu sistem için nasıl hesaplanır;

$P = F\frac{dx}{dt} \Rightarrow P = Fv$

$\bar{P} = \langle F \cdot v \rangle = \langle F_0 \sin\omega t \; x_0 \omega \cos(\omega t + \phi) \rangle$

$\bar{P} = F_0 x_0 \omega \left[\underbrace{\int_0^T \frac{\sin\omega t \cos(\omega t + \phi)\, dt}{T}}_{\frac{1}{2}\sin\phi} \right]$

$\bar{P} = \frac{1}{2} F_0 x_0 \omega \sin\phi$ $\sin\phi$'yi yerine koyalım

$\bar{P} = \frac{1}{2} F_0 \frac{F_0/m \cdot \omega^2/\tau}{\left[(\omega_0^2 - \omega^2)^2 + \left(\frac{\omega}{\tau}\right)^2\right]}$

Paktarının max olması için $\omega = ?$

$\frac{d\bar{P}}{d\omega} = 0$ $\quad \omega = \omega_0$

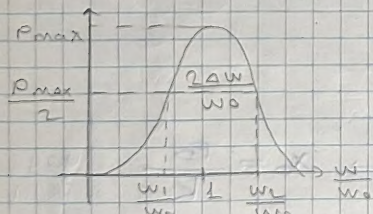

Grafikten ω'ya göre grafiği çizilir.

$Q = \frac{\omega}{2\Delta\omega}$ olur. Kontrol edelim

Aralık $\frac{1}{Q}$'ya eşittir.

$\bar{P}_{max} = \frac{1}{2}\frac{F_0^2}{m}\frac{\omega_0^2/\tau}{\frac{\omega_0^2}{\tau^2}}$

$\bar{P}_{max} = \frac{1}{2}\frac{F_0^2}{m}\tau$

$\bar{P} = \frac{1}{2}\frac{F_0^2}{m}\tau \frac{\frac{\omega^2}{\tau^2}}{\left\{(\omega_0^2 - \omega^2) + \left(\frac{\omega}{\tau}\right)^2\right\}}$ Bu $\frac{1}{2}$'ye eşit olmalı

$2\frac{\omega^2}{\tau^2} = (\omega_0^2 - \omega^2) + \frac{\omega^2}{\tau^2}$

$$\frac{\omega}{\tau} = \omega_0^2 - \omega^2 \qquad Q = \omega_0 \tau \Rightarrow \tau = \frac{Q}{\omega_0}$$

$$\frac{\omega \omega_0}{Q} = \omega_0^2 - \omega^2$$

$$Q = \frac{\omega \omega_0}{\omega_0^2 - \omega^2} = \frac{\omega_0}{\underbrace{(\omega_0 - \omega)}_{\Delta\omega}\underbrace{(\frac{\omega_0}{\omega} + 1)}_{2}} = \frac{\omega_0}{2\Delta\omega}$$

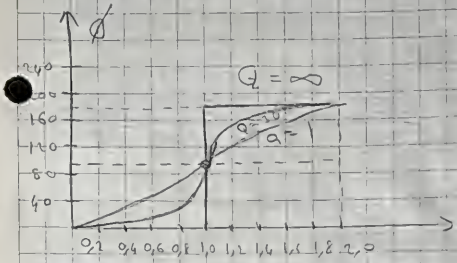

EX:

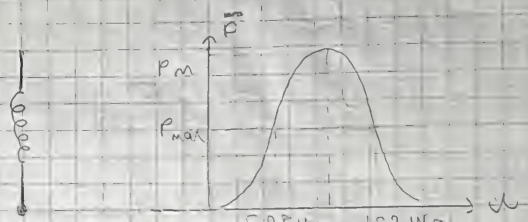

Sabit bir yaya asılı cismin bir zaman sürmüş titreşimi için sisteme bir dış kuvvetin verdiği güç P'yi sürücü frekansının fonksiyonu olarak gösteriyor. (Sürücü kuvvet = $F_0 \sin \omega t$ biçiminde zamanla değişiyor, ω değişebiliyor.)

Ortalama güç çekilen maksimum ω_0 dadır ve cismin yaya bağlı olduğu $0,98\,\omega_0$ ve $1,02\,\omega_0$ da ölçülen Q yeterince büyüktür.

a) Cismin kütlesi değeri = ?

b) Sürücü kuvvet kaldırılınca enerji $E = E_0 e^{-\gamma t}$ ifadesine göre azalır. γ = ?

c) Sürücü kuvvet kaldırılınca her devirde $\frac{\Delta E}{E}$ = ?

d) Bu sistemde yay sabiti 2k olursa yeni rezonans frekansı $\omega_0' = ?$ yeni $Q' = ?$ ve $P_{max}' = ?$, sistemin rezonans frekansındaki toplam enerjisi = ?

a) $Q = \frac{\omega_0}{2\lambda} = \frac{\omega_0}{0{,}04\omega_0} = 25$

b) $\lambda = \frac{1}{\tau} = \frac{\omega_0}{25}$ çünkü $E = E_0 e^{-\frac{t}{\tau}}$

c) $E = E_0 e^{-\frac{\omega_0}{25}t}$

$dE = \left(E_0 \frac{\omega_0}{25} e^{-\frac{\omega_0}{25}t}\right) T$ $\quad \frac{dE}{E} = \frac{\omega_0}{25} \frac{2\pi}{\omega_0} = \frac{2\pi}{25}$

E

d) $\omega_0^2 = \frac{k}{m}$

$\omega_0'^2 = \frac{2k}{m} \Rightarrow \omega_0' = \sqrt{2}\,\omega_0$

$Q' = \omega_0 \tau = \sqrt{2}\,\omega_0 \tau = \sqrt{2}\,Q = \sqrt{2} \cdot 25$

$P_{max} = \frac{1}{2} \frac{F_0^2}{m} \tau$ görüldüğü gibi aynen daire çizi gitmiş gibi değişmez.

$E_0 = \frac{1}{2} k X_0^2$

$E_0' = \frac{1}{2} 2k X_0'^2$ Problem frekansında genlik bulunmuyor.

$\frac{F_0}{m} \frac{\tau}{\omega_0}$ $\quad X_0 = \frac{F_0}{m} \frac{\tau}{\omega_0}$

$E_0' = E_0$ değişim yok

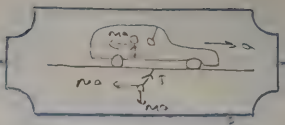

P1: Düşey doğrultuda BHH yapan bir piston üstünde blok bulunmaktadır ($T = 0,1\,s$)

a) Genliğin hangi değeri için piston ve blok birbirinden ayrılır

b) Sonra $A = 5\,cm$ ise piston ile blok ayrılmadan hareket edeceği $f_{max} = ?$

$$\vec{F} = k\vec{x}$$

$$ma = -kx$$

$$a = -\frac{k}{m}x$$

$$a = -k'x \qquad \omega^2 = \frac{k}{m}$$

$$a = -\omega^2 x$$

$$m\omega^2 A = mg$$

$$A = \frac{g}{\omega^2} = \frac{10\,ms^{-2}}{400\pi^2} = \frac{1}{400}\,m$$

$$= 0,25 \cdot 10^{-2}\,m = 0,25\,cm$$

den büyük genliklerde ayrılır.

b) $\omega_{max}^2 = \frac{g}{A} \Rightarrow 4\pi^2 f^2 = \frac{g}{A} \Rightarrow f = \sqrt{\frac{g}{4\pi^2 A}}$

$f = 2,23\,Hz$

P2: 2 kg'lık bir cisim kütlesi ihmal edilebilen bir yayla sarkıtılıyor. Cisim yaya takılınca yay 2,5 cm uzuyor. Yayın üst ucu ihmal bir genlikle BHH yapıyor. Sistemin Q'su 15'tir.



a) Sistemin öz titreşim frekansı (ω_0) nedir?

b) $\omega = \omega_0$ da yay ne kadar titreşir ki maksimum olduğu nedir $X_0 = ?$

c) Zorla titreşim ω_0'dan 2% daha büyük bir frekansla sürülür. Genlik $\frac{1}{2}$'ye düşmek için sönümleme katsayısı β ne kadar?

$$e(\omega) = \frac{\gamma F_0^2}{2m} \cdot \frac{1}{4(\omega_0 - \omega)^2 + \gamma^2}$$ formülü kullanılır.

Önce ω değerini bulmamız gerekiyor.

a) $mg = kx_1$

$2 \cdot 10 = k \cdot 25 \cdot 10^{-2} \Rightarrow k = 800\ N/m$

$\omega_0 = \sqrt{\frac{k}{m}} = \sqrt{\frac{800}{2}} = 20\ rad/s$

b) $X_0 = \frac{F_0/m}{\left[(\omega_0^2 - \omega^2)^2 + (\frac{\omega}{Q})^2\right]^{\frac{1}{2}}}$ $\quad Q = \frac{\omega_0}{\gamma}$

($\omega_0 = \omega$ rezonans halinde)

$X_0 = \frac{F_0/m}{\left[\left(\frac{\omega_0^2}{Q}\right)^2\right]^{\frac{1}{2}}} = \frac{F_0}{m} \frac{Q}{\omega_0^2}$ $\quad F_0 = kX_0$

$= \frac{0,8}{2} \frac{15}{400}$ $\quad F_0 = 800 \cdot 1 \cdot 10^{-3}$

$F_0 = 0,8\ N.$

$Q = \frac{X_0\ (rezonans\ halinde)}{X_0\ (rezonans\ olmayan\ halde)} = 1,5 \cdot 10^{-2}\ m. = 1,5\ cm$

c) $\overline{P}(\omega) = \frac{\gamma F_0^2}{2m} \frac{1}{4(\omega_0 - \omega)^2 + \gamma^2}$

Sizin bildiginiz $\overline{P} = \frac{1}{2} \frac{F_0^2}{m} \frac{\omega^2/\tau}{\left[(\omega_0^2 - \omega^2)^2 + (\frac{\omega}{\tau})^2\right]^{\frac{1}{2}}}$

$Q = \omega_0 \tau$ idi

$\tau = \frac{Q}{\omega_0}$

$\frac{1}{\tau} = \frac{\omega_0}{Q}$

$= \frac{1}{2} \frac{F_0^2}{m} \frac{\omega_0/Q}{\left[(\frac{\omega_0^2 - \omega^2}{\omega})^2 + (\frac{\omega_0}{Q})^2\right]}$

$4(\omega_0 - \omega)^2 = \left[\frac{(\omega_0 - \omega)(\omega_0 + \omega)}{\omega}\right]^2$ rezonans yakinlikta

$\gamma = \frac{\omega_0}{Q}$

$\gamma = \frac{20}{15}$ $\quad \overline{P} = \frac{\gamma}{2} \frac{F_0^2}{m} \frac{1}{4(\omega_0 - \omega)^2 + \gamma^2}$

$= \frac{\frac{20}{15} \cdot (0,8)^2}{2 \times 2} \frac{1}{400} \simeq 2,5\ \dagger$

$\overline{P} = \alpha \ldots + (\omega)$ DIKKAT

$\omega = \omega_0 \pm \frac{\gamma}{2}$ $\quad \omega_0$

$\omega - \omega_0 = \frac{10}{2} / 100 N_0$

$\overline{P}(\omega) = \frac{\gamma F_0^2}{2m} \frac{1}{4(\frac{1}{100}\omega_0)^2 + \gamma^2}$

Bir periyot zamanda sisteme verilen enerji ne kadardır diye sorulsun.

$E = P \cdot t$ olduğundan $E = \bar{P} \cdot T \Rightarrow$ dan bulunur.

$= \bar{P} \cdot \frac{2\pi}{\omega_0}$

Birim zamanda sistemde harcanan enerji sorulduğu için verilen cevap ne olurdu.

Sisteme bir enerji aktarıyorsun. Niçin. Genliği = bir dal mak için. Genlik sbt. olduğunda ne kadar enerji veriliyorsa o kadarda harcanıyordur. Yani 0,08 W'tır.

Sistemin toplam enerjisi rezonans halinde ne olacaktır.

$E_T = \frac{1}{2} k X_0^2$ olurdu.

P3:

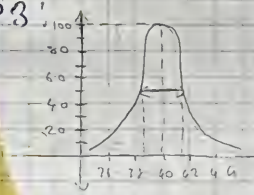

Şekilde bir grafik bir titreşim sisteminin $F = F_0 \sin \omega t$ gibi bir kuvvetle sürülmeğinde güçlü rezonans eğrisini gösteriyor.

a) $Q = ?$
$\omega_0 = ?$

b) Sürücü kuvveti kapatınca, ST sayesinde sistemin enerjisi başlangıcın $\frac{1}{e^2}$'ye düşüyor.

Bu sistemde serbest titreşimlerin periyodunu $\frac{2\pi}{\omega_0}$ olabilir. (Yani kaçıncı son defada bulacak)

a) $Q = \frac{\omega_0}{2\omega} = \frac{40}{2} = 20$ $\omega_0 = 40$ grafikten

b) $\frac{E}{E_0} = \frac{1}{e^5}$ $\frac{E}{E_0} = e^{-5} = e^{-\frac{t}{\tau}}$

$5 = \frac{t}{\tau}$

$\tau = \frac{Q}{\omega_0}$

$= 5 \cdot \frac{20}{40} = 2,5$ s

$N = \frac{t}{T} = \frac{2,5}{2\pi \omega_0} = \frac{2,5\,40}{2\pi}$

$= 16$ titreşim

P4: Alt uçunda küçük cisim takılı olan $m=0$ olan yay asılı duruyor. Yay gergin olmayan durumdayken cisim hareketsiz duruyor.

Cisim serbest bırakıldığında boşlukta $\frac{1}{4}$ tur KHH yapıyor.



a) $f=?$

b) Parçacık başlangıç konumunun 8 cm aşağısında bulunduğunda $v=?$

c) Cisme kütlesi 300 gr olan yeni cisim takılıp sonra sistem ilk frekansının yarısına eşit bir frekansla titreşiyor. İlk cismin kütlesini bulunuz.

d) 2 cisimde yaya takılı olan sistemin X denge konumunu belirleyiniz.

a) $\frac{1}{2}mg = \frac{1}{2}kA^2$

$\frac{mg}{A} = k$ $\qquad \omega = \sqrt{\frac{g}{A}} = \sqrt{\frac{10}{0,5}} = \sqrt{20} = 4\sqrt{5}$ rad/s

$f = \frac{\omega}{2\pi} = \frac{4\sqrt{5}}{2\pi} = 2,2\ s^{-1}$

c) $x = ?$ cm.

$x = A\cos\omega t$

$v = -A\omega\sin\omega t$ $\qquad v = \omega\sqrt{A^2 - x^2}$

$v = 4\sqrt{5}\sqrt{(25-9)\cdot 10^{-4}}$

$v = 4\sqrt{5}\cdot 4\cdot 10^{-2} = 0,36$ m/s

c)

DALGALAR

2'ye ayırırlar: Mekanik ve elektromagnetik. Cevherden itiye ayrılır. Enine ve boyuna dalgalar.
Ortamın parçacıklarının enerji iletiminin titreşim doğrultusu birbirine dikse enine dalgalar. Aynı yön deyse boyuna dalgalardır.
Tek boyutlu dalgalar, ipteki dalgalardır. Şu dalgaların iki boyutlu ve ışık, ses 3 boyutlu dalgalardır.
Ayrıca dalganın periyodik olup olmaması söz konusudur. Atmalar hâlinde mi yoksa devamlımı.

* Dalganın hızı yalnızca ortama bağlıdır. Frekansa bağlı değildir.
* Dalganın enerjisi (uzaya atılan taş gibi) genliğin karesiyle orantılıdır.

Dalga cephesi; 

Dairesel bir hareket yapacak

Bu aynı fazlı noktaların geometrik yerine dalga cephesi denir.

Ortam izotropik (yönden bağımsızsa) dalganın yayılma doğrultusuyla dalga cephesi birbirine diktir.

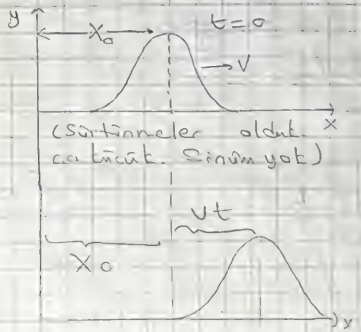

Öyle bir eşitlik yazalım ki sekli bozmasın.
Önerilen $y = f(x - vt)$

(-)v daima bir dalgayı ifade eder.

$t = 0 \quad y = f(x_0)$
$t \quad y = f(x_0 + vt - vt)$
$y = f(x_0)$

$f(x-vt)$ (-) sağa ilerlemeyi (+) sola ilerlemeyi gösterir.
$x - vt = sbt$
$\frac{dx}{dt} - \frac{vt}{dt} \Rightarrow v = \frac{dx}{dt}$ ⇒ yeni konum yıldaki v hız olmalı

Örn! $t=0$ $y=f(x)=\frac{3x}{1+x^4}$ Başlangıç zamanında bir atma oluşturuyor. Bu atmanın sağa doğru $v=2\,m/s$ hızla ilerlediği biliniyor. $y \to m$, $x \to m$ olmak üzere dalga atmasının x'in ve y'nin fonksiyonu olarak yazınız.

Bu durumda $y=f(x-vt)$ denkleminden dolayı $f(x)$'te x gördüğünüz yere $x-vt$ yazarız.

$$y=f(x-vt)=\frac{3(x-vt)}{1+(x-vt)^4}$$

$x=3$ noktasına bağlı bir kuvvetin zamana göre değişimi (yer) grafiği nasıl olur

$$y=\frac{3(3-2t)}{1+(3-2t)^4} \quad (I)$$

$t=1$'inci saniyede ipin fotoğrafı nedir.

(II) $y=\frac{3(x-2.1)}{1+(x-2.1)^4}=\frac{3(x-2)}{1+(x-2)^4}$

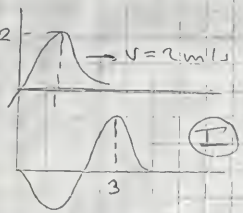

Örn! Hangileri dalga denklemidir.

$y=3\sin\pi(x-3t)$ ✓

$y=4\tan(6x-5t)^3$ ✓

$y=k\pi(x^2-9t^2)$ ✗

$y=4\cos\pi(10x-3t)$ ✓

Periyodik Dalga

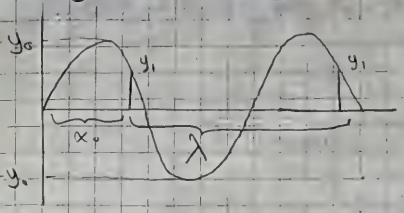

$$y = y_0 \sin\frac{2\pi x}{\lambda}$$

$$y_1 = y_0 \sin\frac{2\pi}{\lambda} x_0 \quad x = 0$$

$$y_2 = y_0 \sin\left(\frac{2\pi x_0}{\lambda} + 2\pi\right) \quad x = x_0 + \lambda$$

$$= y_1$$

Aynı fazlı iki nokta arası uzaklık λ'dır.

$y = y_0 \sin\frac{2\pi}{\lambda}(x - vt)$ Bu hem enine hem boyuna dalgayı ifade eder

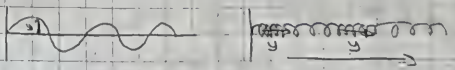

$$y = y_0 \sin\frac{2\pi}{\lambda}(x - vt + \phi)$$

ϕ : Başlangıç şartlarına bağlıdır

$t=0$	$t=0$
$x=0$	$x\neq 0$
$\phi=0$	$\phi\neq 0$

$\frac{2\pi}{\lambda} = k$ = Dalga sayısı = m^{-1}

λ'yı içeri alalım. $\lambda = vT$ (Bir T'de yapılan ilerleme)

$$2\pi\left(\frac{x}{\lambda} - \frac{v}{\lambda}t\right) \quad 2\pi\left(\frac{x}{\lambda} - \frac{t}{T}\right)$$

$$y = y_0 \sin 2\pi\left(\frac{x}{\lambda} - \frac{t}{T}\right)$$

$$y = y_0 \sin(kx - \omega t)$$

$v = ?$

$$V = \sqrt{\frac{F}{\mu}} \qquad \mu = \frac{m}{\ell}$$

F: ipi geren kuvvet
μ: ipin boyca yoğunluğu

Örn:

v_1, v_2, v_3 olan 3 dalga gönderiyorum. (Aynı ortamda)

$y = m \sin(5x - v_2 t)$

$v_1 = v_2 = v_3$

Güç birim zamanda aktarılan enerji idi. Bunu bulalım.

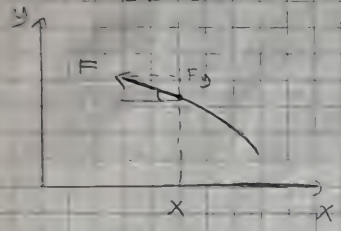

$$P = \vec{F} \cdot \vec{v} = F_y v_y$$

değişir, değişiyor

$$\overline{P} = \langle F_y v_y \rangle$$

Küçük genlikli titreşimler için sina yerine tana alınabilir

$$-F \frac{dy}{dx} = F_y$$

$$\overline{P} = (F_y v_y) = +v^2 \mu y_0^2 k \int_0^{t+T} \frac{\cos^2(kx-\omega t)\,dt}{T}$$

Burada yapılan P=Fv yerine bir periyotlar ortalaması almak

Not: $y = y_0 \sin(kx-\omega t)$ 't'ye göre türevini yukarıda koydut

$$\overline{P} = \frac{1}{2} v^2 \mu y_0^2 k\omega = \frac{1}{2} v^2 \mu y_0^2 \frac{2\pi f}{v} \omega$$

Tüm dalgalar için → $\overline{P} = \frac{1}{2} v \mu y_0^2 \omega^2$

3 boyutlu dalgalarda enerji şiddetle ifade edilir. ve birim yüzeyden birim zamanda geçen enerji olarak da ifade edilir (birim yüzeyden geçen güç)

Örn:

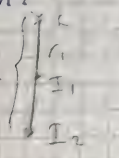

I: şiddet
r: yarıçap
P_T: kaynak gücü

$$I = \frac{P_T}{4\pi r^2}$$

$$I_1 = \frac{P_T}{4\pi r_1^2}$$

$$I_2 = \frac{P_T}{4\pi r_2^2}$$

$$\frac{I_1}{I_2} = \frac{r_2^2}{r_1^2}$$

DALGALARIN GİRİŞİMİ:

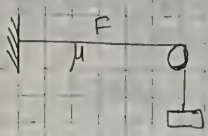

$V = \sqrt{\frac{F}{\mu}}$

İki dalga;
$y_1 = y_0 \sin(kx - \omega t + \phi)$
$y_2 = y_0 \sin(kx - \omega t)$ formunda verilmiş olsun.

$y_1 = y_0 \sin[k(x + \frac{\phi}{k})] - \omega t_0]$
$y_2 = y_0 \sin(kx - \omega t_0)$ t_0 anındaki durumları olsun.

$x = x_0$ iken $y_1 = y_0 \sin[k x - \omega(t - \frac{\phi}{\omega})]$

$y_2 = y_0 \sin(kx_0 - \omega t)$ dir

* $\phi = 30°$ iken $t = 5$ gibi belirli bir t anında dalgalar arasındaki konum farkı nedir?

λ alınsın. $\lambda = 10$ cm

$k(x + \frac{\phi}{k})$ $\quad k\Delta x = \phi \Rightarrow \frac{2\pi}{\lambda}\Delta x = \frac{\pi}{5}$

* $\phi = 30°$ faz farkı varsa iki arasındaki zaman farkı nedir. ωt ile ϕ aynı boyutta.

$\omega \cdot \Delta t = \phi$ $\quad \Delta t = \frac{\pi}{5}$ $\quad 2\pi\nu = 2\pi\frac{v}{\lambda} \Rightarrow 2\pi\frac{v}{\lambda}\Delta t = \frac{\pi}{5}$

Şimdi iki dalgayı üst üste bindirelim.

$\sin A + \sin B = 2\sin\frac{A+B}{2}\cos\frac{A-B}{2}$ dir

$y = y_1 + y_2 = 2y_0 \sin[kx - \omega t + \frac{\phi}{2}]\cos\frac{\phi}{2}$

$y = 2y_0\cos(\frac{\phi}{2})\sin(kx - \omega t + \frac{\phi}{2})$

Dalganın genliği $\rightarrow 2y_0\cos(\frac{\phi}{2})$ Parantezdeki genlikler ve faz farkına bağlı.

STANDING WAVES:

$y_1 = y_0 \sin(kx - \omega t) \rightarrow +x$
$y_2 = y_0 \sin(kx + \omega t) \rightarrow -x$

$y = \underbrace{2y_0 \sin kx}_{\text{sabitler}} \cos \omega t$ $(kx - \omega t)$ ve $(x - vt)$ ol. negatif yönden ilerleyen dalga denklemi.

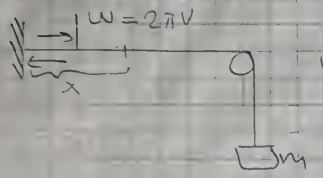

$\sin kx$ ne zaman 1 olur $kx = (2n+1)\frac{\pi}{2}$

$\frac{2\pi}{\lambda} x = (2n+1)\frac{\pi}{2}$ $n = 0, 1, 2 \ldots$

$x = (2n+1)\frac{\lambda}{4}$

$\sin kx$ ne zaman 0 olur $kx = n\pi$

$\frac{2\pi}{\lambda} x = n\pi \rightarrow \lambda = \frac{2x}{n}$

Böyle bir sistemin tellerin temel titreşim frekansı yoluyla bir çok vardır.

$\lambda = 2\ell = \frac{V}{\nu}$ $\quad \nu_1 = \frac{V}{2\ell} = \frac{1}{2\ell}\sqrt{\frac{F}{\mu}}$

$\lambda_2 = \ell = \frac{V}{\nu_2}$ $\quad \nu_2 = \frac{2}{\ell}\sqrt{\frac{F}{\mu}}$

Genel $\nu_n = \frac{n}{2\ell}\sqrt{\frac{F}{\mu}}$

Spectrum; Frekansa göre (yada λ'ya) genlik dağılımıdır.

Zarfın 2 sistem gerekir. Birinden diğeri enerji verilen değişir.

Soru: Frekansı $\nu = 20\,s^{-1}$ olan dalganın hızı $v = 80\,m/s$'dir.
a) Belirli bir anda yerdeğiştirmelerinin fazları arasında $30°$ faz farkı olan 2 nokta birbirlerinden ne kadar uzaktadır.
b) Verilen bir noktada 1/6 sn. aralıkla oluşan iki yerdeğiştirme arasındaki faz farkı nedir.

$y_1 = y_0 \sin(kx - \omega t + \phi)$

$y_2 = y_0 \sin(kx - \omega t)$

a) $t = t_0$

$y_1 = y_0 \sin(k\frac{\phi}{k} - \omega t + \phi)$

$\Delta x = \frac{\phi}{k} = \frac{\frac{\pi}{6}}{\frac{2\pi}{\lambda}} \Rightarrow \Delta x = \frac{v}{12} \frac{1}{\nu} = \frac{80}{12} \cdot \frac{1}{20} = \frac{1}{3}$ m.

b) $\omega \Delta t = \phi \quad \phi = 2\pi \omega \Delta t = 2\pi 20 \frac{1}{100} = 0{,}4\pi$

Soru: Boyca kütlesel yoğunluğu $\mu = 0{,}1$ kg/m olan ip 50 N/m ile gerilmektedir. İp bir ucundan 2 cm genlikle ve $\frac{1}{10}$ s. periyotla (+) x yönünde yayılıyor.

a) Dalgaların hızı = ?

b) " $x = ?$

c) $x = 0$'dan $t = 0$ anında yerdeğiştirme 1 cm ve $\frac{\Delta y}{\Delta t} = -$ ise dalga denklemini yazın.

a) $v = \sqrt{\frac{50}{91}} = 22{,}4$ m/s.

b) $\lambda = vT = 22{,}4 \cdot 0{,}1 = 2{,}24$ m.

c) $y = y_0 \sin(kx - \omega t + \phi)$

$y = 0{,}02 \sin\left(\frac{2\pi}{2{,}24} x + 20\pi t + \frac{\phi}{\frac{\pi}{6}}\right)$

$0{,}01 = 0{,}02 \sin\phi$

$\sin\phi = \frac{1}{2}$

$\phi = \frac{\pi}{6}$ rad →

$\frac{dy}{dt} = -20\pi \, 0{,}02 \cos\ldots$

(−) var.

Sorudan $\frac{dy}{dt}$ (+) değer verse dy (+) çıkarırdık.

$\frac{2\pi}{6}$ alıp $\frac{dy}{dt}$'yi.

Soru! $F = 5N$ ve $\mu = 0,1\ kg/m$ değerleri geçen örnek soru daki gibi olan bir ipte $y(x,t) = 0,02 \sin\pi(x - vt)$ denklemi ile verilen dalgalar yayılmaktadır ($x, y \to m$; $t \to s$) ip üzerinde $x = 5m$ üzerindeki noktanın $t = 0,1\ s$'deki enine hızı nedir.

$$v_y = \frac{dy}{dt} \qquad v = 22,4\ m/s.$$

$$y(x,t) = 0,02 \sin\pi(x - 22,4t)$$

$$v_y = \frac{dy}{dt} = -0,02(22,4\pi)\cos\pi(x - 22,4t)$$

$$v_y = -0,02(22,4\pi)\cos\pi(5 - 22,4 \cdot 0,1)$$

$$v_y = -1,39 \qquad s.$$

Soru! Birbiri ile ters yönde ilerleyen aynı frekans ve genlikli iki dalganın toplamını düşünelim. Bu durumda kararlı dalganın ardışık iki düğüm noktası için de kalan enerjisinin

$$E = 2\pi^2 \mu y_m^2 v^2 \text{ olduğunu gösteriniz.}$$

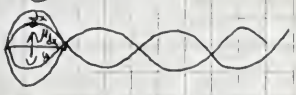

$$y = 2y_0 \sin kx \cos\omega t$$

$$E_T = E_k + U$$

$$dE_T = \frac{1}{2}\mu dx\left(\frac{dy}{dt}\right)^2 + \frac{1}{2}\omega^2 \mu dx y^2$$

$F = ma = -\omega^2 ym = -Ky$
$K = \omega^2 m$
$U = \frac{1}{2}Ky^2$
$U = \frac{1}{2}\omega^2 \mu dx y^2$

Tepe noktası için yazalım.

$$\int dE_T = \int_{x=0}^{\lambda/2} \frac{1}{2}(2y_0 \sin kx)^2 \omega^2 \mu dx$$

$$E_T = \frac{1}{2} 4 x_0^2 \omega^2 \mu \int_0^{\lambda/2} \sin^2 kx\, dx$$

$$E_T = \frac{2}{2}\mu y_0^2 \omega^2 \int_0^{\lambda/2} (\cos kx\, dx + dx)$$

$$E_T = \mu y_0^2 \omega^2 \left| \frac{1}{2}\sin(kx + x) \right|_0^{\lambda/2}$$

$\frac{\lambda}{2}$ kendi değerinde 0

$$E_T = \mu y_0^2 \omega^2 \frac{\lambda}{2} = \frac{4\pi^2}{2} v^2 \mu y_0^2 \frac{v}{\nu} = 2\pi^2 v v \mu y_0^2$$

SES DALGALARI

Bu dalgalar mekanik ortam içinde boyuna ilerleyen dalgalardır.

Bir ses dalgası

$y = y_m \cos(kx - \omega t)$ ile verilir.

Burada y_m hava moleküllerinin max. yerdeğiştirmesidir.



üç boyutta ise.

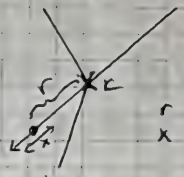

r formülde x ile verildi.

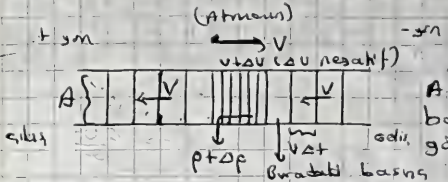

Atmosfer durgun olduğu sistemden bakarsak atma sola hareketli görülür.

ΔV negatiftir çünkü atmanın içinden baktığımız biri için gelen hava molekülünün hızı azalır. Hızı azaltan bir kuvvet vardır.

$\vec{F} = \Delta P \cdot A$ (A: kesit alanı)

Silindirdaki aynı hızı kazandıran bir kuvvet olmalı;

$\overleftarrow{F} = \Delta P \cdot A$

$\Delta P A = -(A v \Delta t \rho_0) \frac{\Delta v}{\Delta t}$ $\quad F = ma$ idi.

$\Delta P = -v \rho_0 \Delta v$

$\frac{\Delta P}{\Delta v} = -v \rho_0$

$B = \frac{-\Delta P}{\frac{\Delta V}{V}} = +v^2 \rho_0$

$v = \sqrt{\frac{B}{\rho_0}}$ (sıvılarda)

$\Delta x \cdot A = V_{(hacim)}$ için girince; $\Delta y \cdot A = \Delta V$

(yerdeğiştirme)

$\frac{\Delta V}{V} = \frac{\Delta y}{\Delta x}$

B: Hacimce esneklik modülü (Bulk modülü)

Aynı zamanda $B = \frac{1}{K}$ K: sıkıştırabilirlik.

$v = \sqrt{\frac{\gamma P}{\rho_0}}$ (ideal gaz) $\gamma = \frac{C_p}{C_v}$ idi.

Tek atomlu gazlar için $\gamma = 1{,}67$

İki " " " " $\gamma = 1{,}40$

Katılarda; $v = \sqrt{\frac{E}{\rho}}$ E: Esneklik modülü

$E = \frac{F/A}{\frac{\Delta \ell}{\ell}}$



B: N/m^2, pascal

Belirli bir hacimdeki suyun basıncı 100 kPa arttırılırsa bulunduğu hacminde $\frac{\Delta V}{V} = -5 \cdot 10^{-5}$ oranında azalma görülüyor.

a) Su için B=?

b) Sesin sudaki hızı nedir?

a) $B_{su} = \frac{\Delta P}{\frac{\Delta V}{V}} = \frac{100 \cdot 10^3}{5 \cdot 10^{-5}} = 2 \cdot 10^9$ Pa

b) $v = \sqrt{\frac{2 \cdot 10^9}{1 \cdot 10}} = 1400$ m/s

$\frac{\Delta V}{V} = \frac{\Delta v}{v}$

Not:

$\Delta V = \Delta y \, A$

$V = \Delta x \, A$

$\frac{\Delta V}{V} = \frac{\Delta y}{\Delta x} = \frac{\Delta y / \Delta t}{\Delta x / \Delta t}$

Su olmaz;

$\frac{v}{V} = \frac{\Delta v}{\Delta t}$

$\Delta V = A \Delta v \Delta t$

bu olur.

Sesin He'un yoğunluğu 0,179 kg/m³'tür. (76 cm Hg, 0 °C). Bu basınç ve sıcaklıkta He içinde sesin hızı nedir?

$v_{He} = \sqrt{\frac{B}{\rho_0}} = \sqrt{\frac{\gamma P}{\rho_0}} = \sqrt{\frac{1{,}67 \cdot 1{,}013 \cdot 10^5}{0{,}179}} = 972$ m/s

İki atomlu gazdan oluşan hidrojen içinde 27°C'de sesin hızı nedir? (ρ_H) M = 2 kg/kmol, R = 8314 J/kmol

$v = \sqrt{\frac{\gamma P}{\rho_0}}$ $PV = nRT$ $v = \sqrt{\frac{\gamma nRT}{V \rho_0}} = \sqrt{\frac{\gamma nRT}{M}}$

$v = \sqrt{\frac{1{,}6 \cdot 1 \cdot 8314 \cdot 300}{2}} = 1321$ m/s

$B = -\frac{\Delta P}{\frac{\Delta V}{V}}$ idi

$\Delta P = -B\frac{\Delta V}{V}$

$\Delta P \to p$ alalım

$p = -B\frac{\Delta y}{\Delta x}$

$\frac{\Delta V}{V} = \frac{\Delta y A}{\Delta x A}$

$v = \sqrt{\frac{B}{\rho_0}} \Rightarrow B = v^2\rho_0$

$p = -v^2\rho_0\frac{\partial y}{\partial x}$

$\frac{\Delta V}{V} = \frac{\Delta y}{\Delta x}$

$y = y_m \cos(kx - \omega t)$

$p = \underbrace{v^2\rho_0 y_m k}_{p_m} \sin(kx - \omega t)$ idi

$p = p_m \sin(kx - \omega t)$

$p_m = v^2\rho_0 y_m \frac{2\pi\nu}{v}$

$p_m = v\omega\rho_0 y_m$

p: Herhangi bir t anında herhangi bir x ordinatında basıncın ρ_0'a göre değişimini gösterir.

y_m: Parçacık titreşim genliği

Kulağın duyabildiği max basınç $P_m = 28$ Pa, atmosfer basıncı ise $P_0 = 1\cdot10^5$ Pa'dır. $\nu = 10^3$ Hz. olan ses dalgasının sebep olduğu max yer değişimi nedir?

$y_m = ?$

$p_m = v\omega\rho_0 y_m \Rightarrow y_m = \frac{28}{340\cdot2\cdot3{,}14\cdot10^3\cdot1{,}22} = 1{,}07\cdot10^{-7}$ mm

İnsan kılcalı 10^{-11} m civarındadır.

$I = \frac{P}{A}\left(= \frac{W}{m^2}\right)$ idi. Şimdi ses şiddetini yazmaya çalışalım

$P_{ort} = 2\pi y_m^2 \nu^2 \mu v$ idi

$\mu = \frac{m}{\ell} = \frac{A\ell\rho}{\ell} = A\rho$

$I = \frac{P}{A} = 2\pi^2 y_m^2 \nu^2 \rho_0 v$

$I = \frac{1}{2}\omega^2 y_m^2 \rho v$

$$I = \frac{1}{2}\frac{\omega^2 y_m^2 \rho^2 v^2}{\rho v} = \frac{p_m^2}{2\rho v}$$

$$I = \frac{p_m^2}{2\rho v}$$

$$\beta = 10 \log \frac{I}{I_0}$$ bu eşitlikte ediyor.

Bir dedektör A noktasında sesin şiddetini I olarak ve desibel cinsinden bunun değeri β'dır. Ses yükseltilgidir.

(Kitaplarda bu $I_0 = 10^{-12}\ W/m^2$ standart ile verilir. Bu insan duyabileceği min değerdir)

0 dB	duyma sınırı
10 dB	Hışırtı
20 dB	Fısıltı
30 dB	sakin ev odası
60 dB	normal konuşma



$$\beta_1 = 10 \log \frac{I_1}{I_0}$$

$$\frac{I_1}{I_2} = 4 \text{ kat}$$

$$\beta_2 = 10 \log \frac{I_2}{I_0}$$

$$\beta_1 - \beta_2 = 10 \log \frac{I_1}{I_2} = 6\ dB$$ kadar

120 dB i'cin şiddet $120 = 10 \log \frac{I_1}{I_0}$

$$10^{12} = \frac{I_1}{I_0} \Rightarrow I_1 = 10^{12} I_0$$



$\ell = \frac{\lambda}{2} = \frac{v}{2\nu}$ ise $\nu = \frac{v}{2\ell}$ olur.

$\ell = \lambda = \frac{v}{\nu}$ ise $\nu = \frac{v}{\ell}$

ise sondüleme ile $\nu_n = \frac{nv}{2\ell}$ olur



$\frac{\lambda}{4} = \frac{v}{4\nu}$ $\nu = \frac{v}{4\ell}$

Uuru:

$t = \frac{n}{v_1 - v_2}$ $\quad t_1 = \frac{1}{v_1 - v_2}$ $\quad t_2 = \frac{2}{v_1 - v_2}$

$\Rightarrow \underbrace{\Delta t}_{\text{Vuruşun periyodu}} = \frac{1}{v_1 + v_2}$

$\frac{1}{\Delta t} = v_1 - v_2$ olur.

Ex: a) $v_1 = 512$ Hz ve $v_2 = 510$ Hz'lik diyapazonlarımız var. $v_{vuru} = ?$

b) yine $v_1 = 1000$ Hz ve $v_2 = 1010$ Hz'likleri titreştirdik $v_{vuru} = ?$

a) $v_{vuru} = 2$ Hz. (Saniyede 2 tane ses yükselip alçalacak)

b) $v_{vuru} = 10$ Hz. (Bunu kulak ayırt edemez)

Ex: $y = 2A \cos(\delta) \cos(kx - \omega t + K)$

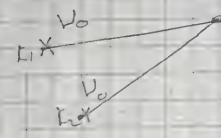

A'da genlik sabit olacak ama farklı yol farkına bağlı olacak genlik değeri değişecektir.

Tam değeri bulmak için

$y_1 = A \cos(kr_1 - \omega t + \phi)$

$y_2 = A \cos(kr_2 - \omega t + \phi')$'nün toplamıdır

$$y = 2A \cos\left(k\frac{r_1 + r_2}{2} - \omega t + \frac{\phi + \phi'}{2}\right) \cos\left(k\frac{r_1 - r_2}{2} + \frac{\phi - \phi'}{2}\right)$$

olur.

Başlangıçta faz farkı yoksa;

$\frac{2\pi}{\lambda}\frac{r_1 - r_2}{2} = n\lambda \Rightarrow r_1 - r_2 = n\lambda$ olur

Doppler Olayı

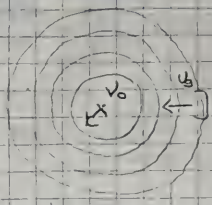

v_d = dalga hızı
v_g = Gözlenen hız

Dedektörünün ve kaynak sabitken birim zamanda v_0 tane dalga tepesi dedektöre kaynağa doğru yaklaştırırsa duyduğu miktarı

$$v' = v_0 + \frac{v_g}{\lambda} = v_0 + \frac{v_g}{\frac{v_d}{v_0}}$$

$$v' = v_0 \left(1 + \frac{v_g}{v_d}\right)$$

$$v' = v_0 \left(\frac{v_d + v_g}{v_d}\right) \text{ olur}$$

Uzaklaşsaydı $v' = v_0 \left(\frac{v_d - v_g}{v_d}\right)$

Eğer kaynakta varsa bu durumda; $v' = v_0 \left(\frac{v_d \mp v_g}{v_d \mp v_k}\right)$

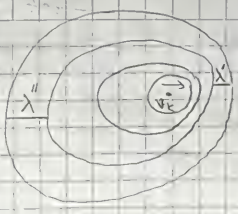

Eğer hareketsiz durumda dalga boyu λ ise bu durumda
$\lambda' < \lambda < \lambda''$ olacaktır.

$$\lambda' = \lambda - \frac{v_k}{v_0} = \frac{v_d - v_k}{v_0} = \frac{v_d}{v'}$$

Kaynağın yer değiştirme zamanı (bir T için)

Buradan $v' = v_0 \left(\frac{v_d}{v_d - v_k}\right)$ olur.

$\lambda'' = \lambda + \frac{v_k}{v_0}$ olursa $v' = v_0 \left(\frac{v_d}{v_d + v_k}\right)$ olur.

Genel formül $v' = v_0 \left(\frac{v_d \mp v_g}{v_d \mp v_k}\right)$ olur

Ortamda hareket oluyorsa kaçan hızlar ortama göre alınmalıdır.

Ex: v_k = 20 Hz ⟶ $v_k = 20$ m/s ⟶ $v_g = 20$ m/s

⟵ $v_{rüzgar} = 10$ m/s

$v_g = 10$ m/s

$v_{ses} = 340$ m/s

* Rıza Sungur

(+)yön →

$$\nu' = \nu_0 \left(\frac{v_{do} - v_{go}}{v_{do} - v_{ko}} \right) \Rightarrow$$

$$\nu' = 500 \left(\frac{340 - 30}{340 - 60} \right) \Rightarrow$$

$$\nu' = 516,67 \ s^{-1}$$

* Hocanın yolu

$$\nu' = \nu_0 \left(\frac{v_{dy} - v_{oy}}{v_{dy} - v_{ky}} \right)$$

$$\nu' = 500 \left(\frac{330 - 20}{330 - 30} \right) = 516,67 \ s^{-1}$$

$$\vec{v}_{go} = \vec{v}_{oy} - \vec{v}_{gy}$$

$$\vec{v}_{go} = 20 - (-10)$$

$$v_{go} = 30 \ m/s$$

$$\vec{v}_{ko} = \vec{v}_{ky} + \vec{v}_{oy}$$

$$= 30 + 10 = 40 \ m/s$$

$$\nu'' = 500 \left(\frac{350 - 10}{350 + 30} \right)$$

Bu işlemde (+)yön ← alınmıştır.

$$\nu'' = 447,37 \ Hz$$

$$v_{dy} = v_{dh} + v_{hy} = (340 + 10) \ m/s$$

$$= 350 \ m/s$$

IŞIK BİLGİSİ:

Kabaca girişim iki ayrı kaynaktan çıkan dalgaların çakıştıkları bir A noktasında üst üste gelmesidir.

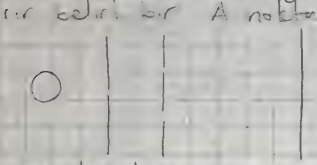

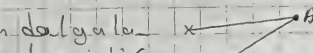

Perdedeki şiddeti arttırmak için birim zamanda kaynaktan yayınlanan foton sayısını arttırırız. Bu şiddeti arttırır.

Bir noktada aydınlık ya da karanlık gözlenebilmesi için o noktada tek bir ortamın (kaynağın) tepeleri üst üste gelmesi gerekir.)

İki ayrı kaynak 10^{-8} s'de salındıkları için biz gözlemleyemeyiz. Çünkü tüm olay bu zaman da olabilir.

İki Dalganın Üst üste Gelmesi:



ϕ yol farkına ve A ve B'nin başlangıç fazlarının farklarına bağlıdır.

$$y_A = y_0 \sin(\omega t)$$

$$y_B = y_0 \sin(\omega t + \phi)$$

zamandan bağımsız terim gelir.

$$y = y_A + y_B = 2 y_0 \cos\frac{\phi}{2} \sin\left(\omega t + \frac{\phi}{2}\right)$$

$$\Delta = r_B - r_A$$

Boşlukta ϕ ile Δ arasında

$$\phi = \frac{2\pi}{\lambda} \Delta$$ FAZ FARKI İLE YOL FARKINI BAĞLAYAN İFADE

$$\frac{\Delta}{\lambda} = \frac{\phi}{2\pi}$$ olur.

$$I = I_0 \cos^2\frac{\phi}{2}$$ olur.

Bir zaman içinde ortalama değeri alacağız.

$I_0 \propto 2 y_p^2$

$\phi = 0, 2\pi, 4\pi, 6\pi \ldots$ $\frac{\delta}{\lambda} = 0, \pi, 2\pi$ olacağından en büyük şiddet elde edilir. Aydınlık saçak geçer. (Herhangi bir dalga ile yapıcı dalga şartı)

$\phi = \pi, 3\pi, 5\pi, 7\pi$ $\phi/2 = \frac{\pi}{2}, 3\pi/2$ şeklinde olacağından yıkıcı girişim şartı (Işıkta karanlık).

$I_0 = I_0 \cos^2 \frac{\pi \delta}{\lambda}$ 'da yazılabilir.

Bu sonucu young deneyine uygulayalım.

(Eğer yarık yerine noktalar kullanırsak aynı merkezli dalgalar görürüz.
İlk yarık olmazsa iki yarığa uzaklığı yol farkından almamız gerekir.)

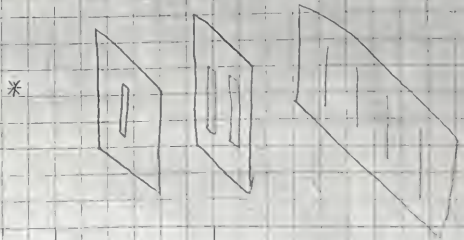

P_0'da yol farkı 0 olduğundan
$I_0 \cos^2 \frac{\pi 0}{\lambda} = 0$ max şiddet

İki yarık olursa merkezi yine aydınlık şiddet sıfır olacak ama λ'lı da yine max olacak. Ama ...

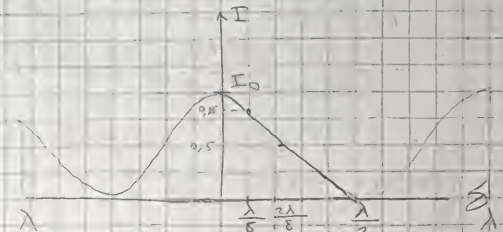

$\phi = \frac{\pi}{4} \Rightarrow \frac{\pi}{4} = \frac{2\pi}{\lambda} \delta$

$\delta = \frac{\lambda}{8}$

$\phi = \frac{\pi}{2} \Rightarrow \delta = \frac{\lambda}{4}$

* Yarık genişliğinden dolayı kırınım etkisi olacağından dalga yalnız gidebilecek aydınlık şiddeti azalır. (Delik uygulanan kırınım etkisini belirler)

Soru:

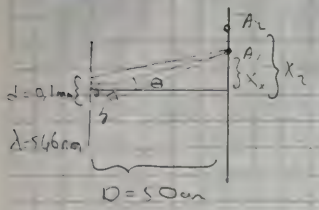

Aydınlık saçakla ardışık aydınlık

Aydınlık şartı $\delta = d \sin\theta = m\lambda$ ile verilir.

$$\text{tg}\,\theta = \frac{\delta}{d} = \frac{x}{D}$$

$$x_1 = D\frac{m\lambda}{d}$$

$$x_2 = D\frac{(m+1)\lambda}{d} \qquad \Delta x = x_2 - x_1 = \frac{D\lambda}{d} = \frac{0{,}5 \cdot 546 \cdot 10^{-9}}{1 \cdot 10^{-3}}$$

$$\Delta x = 2{,}7 \cdot 10^{-3}\,m = 2{,}7\,mm.$$

$d = 0{,}022$ cm
$D = 100$ cm
$A_2 = 0{,}5$ cm uzaklıktaki ilk aydınlık

$$\sin\theta = \frac{\delta}{d} = \frac{x}{D}$$

$$\lambda = \frac{d\Delta x}{2\lambda} \text{ olur}$$

$$\lambda = 575\,nm.$$

Yine d ve D aynı kalan düzenekte civarın $\lambda_{mavi} = 436$ nm
$\lambda_{yeşil} = 546$ nm
ar. 1. aydınlık çizgiler arasında hangisi dışarda olur. Hangisinin dalga boyu büyükse o dışarda olur. Aralarındaki fark nedir?

$$x_{1y} - x_{1m} = \frac{D\lambda_y}{d} - \frac{D\lambda_m}{d} = \frac{D}{d}(\lambda_y - \lambda_m)$$

Dalgaların Phasor yöntemi ile Toplanması

Herhangi bir noktadaki dalgayı $y = y_0 \sin\omega t$ ile ifade edebiliriz.

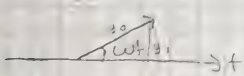

Büyüklüğü y_0 olan bir vektör saat yönünün ve zamanın ters yönünde

$y_2 = y_0 \sin(\omega t + \phi)$ ...

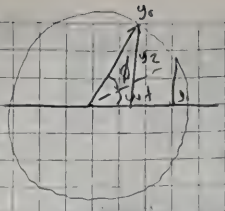

Bu iki dalgayı nasıl toplarız. Görüldüğü gibi ωt hepsinde ortak. Bu nedenle ekten başlangıç olarak ωt'den sıralayıp alacağız.



$\phi = 2\psi$ olur

$\frac{R}{2} = y_0 \cdot \cos\psi$

$\frac{R}{2} = y_0 \cos\frac{\phi}{2}$

Bunu şekilde görelim

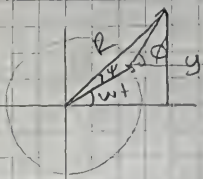

R'nin ismi toplam dalganın genliğidir.

Bu şekilde $R = 2y_0 \cos\frac{\phi}{2}$ olur.

y'yi zaman derlerine ne yazarız. $y = y_1 + y_2$ olur.

$y = R\sin(\omega t + \frac{\phi}{2})$

$y = \frac{y}{R}$ $\sin(\omega t + \frac{\phi}{2}) = \frac{y}{R}$

olur.

$y = 2y_0 \cos\frac{\phi}{2} \sin(\omega t + \frac{\phi}{2})$

Aralarında ϕ kadar faz farkı olan N adet dalga toplamı:

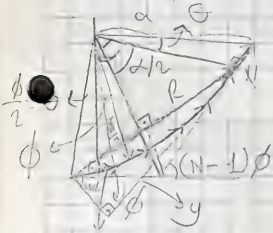

$(N-1)\phi = \alpha$

R → Toplam genlik

$y \to f(\omega, \phi, N)$

$\sin(\frac{\alpha}{2} + \theta) = \frac{R}{2a}$

$R = 2a\sin(\frac{\alpha}{2} + \theta)$

$R = \frac{y_0}{\sin\frac{\phi}{2}} \sin(\frac{\alpha}{2} + \frac{\phi}{2})$

Bir ucundaki açısı $\frac{(N-1)\phi}{2} = \frac{\alpha}{2}$

$a = \frac{y_0}{2\sin\frac{\phi}{2}}$

$= \frac{y_0}{2}$

$$R = y_0 \frac{\sin\frac{N\phi}{2}}{\sin\frac{\phi}{2}}$$

$$R = y_0 \frac{\sin\frac{N\phi}{2}}{\sin\frac{\phi}{2}}$$

$4y_0$

$I_0 = 16 y_0^2$

wt 1 fazer ile altındaki arasındaki açıdır.

$$\frac{y}{R} = \sin\left[\omega t + \frac{(N-1)\phi}{2}\right]$$

$$y = y_0 \frac{\sin\left(\frac{N\phi}{2}\right)}{\sin\frac{\phi}{2}} \sin\left[\omega t + \frac{(N-1)\phi}{2}\right]$$

Genel toplam dalga denklemi

$$I = I_0 \frac{\sin^2\frac{N\phi}{2}}{\sin^2\frac{\phi}{2}}$$

Aralarında ϕ faz farkı olan N dalga üst üste gelirse elde edilen şiddet I olur.

Soru:

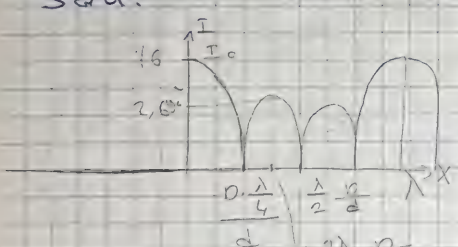

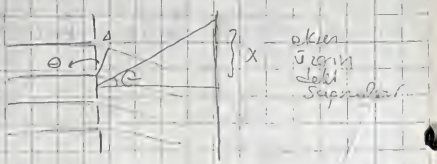

Aralarında ϕ kadar fark olan $\frac{\lambda}{4}$ olan 4 yarıklın sıfırdan dağılımını arın

$\phi = 0$ için R'nin bulur, alınır (yukarı ve aşağıda 0'se genel $R = N \cdot \ldots$ gibi ifade olur.

$\phi = \frac{\pi}{2}$ olsun.

$\frac{\pi}{2} = k\Delta = \frac{2\pi}{\lambda}\Delta$

$\Delta = \frac{\lambda}{4}$

$I_0 = (4y_0)^2$ ile ... ^ ilişki

$\sin\theta = \frac{\frac{\lambda}{4}}{\frac{d}{2}} = \frac{x}{10}$

$\phi = \frac{2\pi}{\lambda} = \frac{\lambda}{2} = \pi$

$\phi = \frac{2\pi}{\lambda} = \frac{3}{8}\lambda$ olunca $I = I_0 \frac{\sin \frac{3}{2}\pi}{\sin^2 \frac{3}{4}\frac{\pi}{2}} = I_0 \frac{1}{\quad}$

$\phi = \frac{3}{4}\pi$ =

4. yarıkta 2 boşluk, 2 ufak
5. " boşluklar değişiyor, 2 ara ufak
Max şiddetler değişiyor.

I, R'nin boşluğuyla orantılıdır.

Yarık sayısı arttıkça saçakların şiddeti artar.

Newton Halkaları, İnce Filmlerde Girişim



2 numara $2d$ uzunluğunda fazla yol alıyo.
Net geçirilen $2d - \frac{\lambda}{2}$ olur

Camdan havaya geldik. Yansımada 1 numara fazı farklı başlıyor.
2 de $2d$ kadar geçtik ama $\frac{\lambda}{2}$ kadar ora geçti.

$* \quad \phi = \pi = \frac{2\pi}{\lambda}\Delta$

$\Delta = \frac{\lambda}{2}$

$2d = \frac{\lambda}{2} = m\lambda$ parlak saçak $m = 0$

$2d - \frac{\lambda}{2} = (2m-1)\frac{\lambda}{2}$ olursa karanlık $m = 0$



Hava (kırılma indisi 1'dir)

$2d_1 = \frac{\lambda}{2}$

ve 2 yol farkı kalıyor.
$\frac{\lambda}{2}$ olup tam $\frac{\lambda}{2}$ yol farkı

$\frac{\lambda}{2}$'nin tek katları olursa karanlık olur

$n = \frac{\lambda}{\lambda_m} = \frac{c}{v_m}$

n kaynaklı ise

Optik yol $L = nl$

Soru: $\lambda = 600\,nm$ dalga boylu geniş bir kaynak bir kenarları birbirine değen iki kenarı buradaki ince $0{,}04\,mm$ olan ince cam levha aydınlatıyor.

Değer kullanılan $120\,mm$ alınırsa kaç aydınlık saçak görülür.



Aydınlık saçak = ?

Aradaki yansıyan ışınların arasındaki yol farkı

$2d - \frac{\lambda}{2} = n.\lambda$ olursa aydınlık olur.

Kenardan gelen ilk aydınlık saçak için $n=1$ ve d_1 olsun

$2d_1 - \frac{\lambda}{2} = n.\lambda$

$2d_1 - \frac{\lambda}{2} = (n+1)\lambda$

$d_2 - d_1 = \frac{\lambda}{2}$ (Her saçaklar ile aydınlık [illegible])

$2d + \frac{\lambda}{2} = m\lambda$ m=0 'dan başlıyorsa

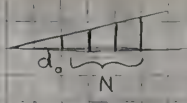

$d_0 = \frac{\lambda}{4}$

$d_0 + N\frac{\Delta}{2} = 0{,}048 \cdot 10^{-5}$ (Son tutulma aydınlık! tabii! eğik yarıklı alırsan. Şöyle düşün: çizgi sıkıştıran tüm ahlar)

$N = 140{,}6$ Total Aydınlık: $d_0 + 140 = 141$

Eğer açıklık 50 mm'lik olsaydın istersen (Aydınlık sayın)



$\frac{D}{L} = \frac{7}{120}$

$D = \frac{7}{12} \times 0{,}048$

$N_1 = \frac{(0{,}048 \cdot 10^{-3} - 170 \cdot 10^{-9})2}{680 \cdot 10^{-9}}$

141'den N_1 değerini çıkarırsam n_{50} (50mm'lik kısımdaki aydınlık sayısı)

$n_{50} = 141 - (N_1 + 1)$

↓ d_0'dan gelen

Soru: Dalgaboyu 630 nm olan ışık kırma indisi 1,5 olan camdan yapılmış bir filmin üzerine dik olarak gelmektedir. Filmin kalınlığı kaç mikrometre olmalıdır ki filmden yansıyan ışık tamamen sönümlensin? Bu kalınlık içinde kaç tane tam dalga boyu bulunur?

$2nd + \frac{\lambda}{2}$ yol farkı

$2nd_1 + \frac{\lambda}{2} = m\lambda$

$2nd_2 + \frac{\lambda}{2} = (m+1)\lambda$

$2nd_1 \quad 2nd_2 \quad 2\lambda$

$d_2 - d_1 = \frac{\lambda}{2n}$ d_0 (Bir ... yapabiliriz)

$d_2 - d_1 = \frac{n \cdot 600 \times 10^{-3}}{2 \cdot 1,5} = 1,89 \cdot 10^{-6}$ m

Newton Halkaları:

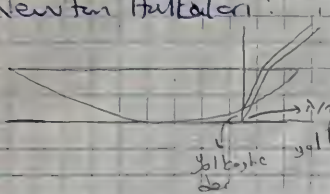

$2d - \frac{\lambda}{2} = m\lambda$ Aydınlık

$2d - \frac{\lambda}{2} = (2m-1)\frac{\lambda}{2}$ Karanlık

KIRINIM:

Tek Yarıkta Kırınım:

İki tip kırınım olayı vardır. Fraunhofer ve Freinel.

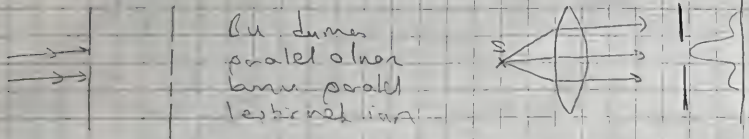

Freinel'de ise paralelleştirme olmadığından

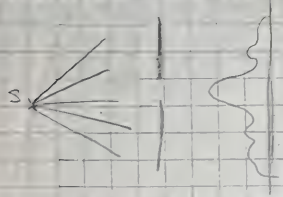

Aralıklar eşit olduğunda bile kırınım olur. Çok ince bir yarıktan geçen ışık kırınıma uğrar.

Kırınım görülebilmesi için d ile λ nın kıyaslanabilir olması gerekir.

Tek Yarıkta Kırınım:

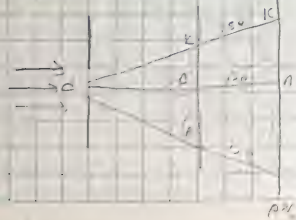

Yarık aralığı arttıkça merkez saçak genişliği azalır.

İki şiddet eğrisi altında kalan alan eşittir.

Tek yarıkta karanlık ve kırmızılık şartını inceleyelim.

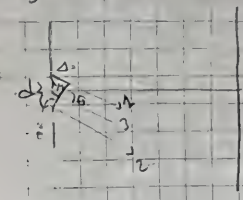

Δ 1, 2 arası yol farkı

1, 2 arası yol farkı λ ise şekil 1 arası $\frac{\lambda}{2}$ alıp birbirini sönderir.

Tek yarıkta karanlık şartı $\sin\theta = \frac{m\lambda}{d}$ ($m=1$'den başlar)

$d \sin\theta = m\lambda$ KARANLIK

$\frac{\lambda}{2}$ ile sönderek $\frac{\lambda}{4}$ ile $\frac{\lambda}{2}$ arası birbirini sönderemez.

Tek yarıkta ortada parlak saçak vardır.

Tek yarıkta kırınımda parlak saçak şartı

$$\sin\theta = \frac{\Delta}{d} = \frac{(2m+1)\frac{\lambda}{2}}{d}$$ (Braggdan $m=1$'den başlar)

Şiddet hızla azalır. Tek yarıkta hızla azalır.

$m=0$ koşulunda bulunan doğrultu merkezi saçağın ortasıdır.

Birinci minimum için $\sin\theta = \frac{\lambda}{d}$

Dalga boyu büyük olan kırınımı büyük olduğundan bir ışığı iki yarıkta, kırmızılığı daha düşüktür.

*

b yarığın da toplandığında küçük küçük yarıklardan oluştuğunu kabul edelim (ds'ler birbirine eşit) ds'nin altındaki gibi yarık referans alınsın.

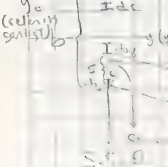

y_0 (çubuk sayısı) b

I_{dc}

I_{top} $y_{(yol\ farkı)}$

θ ve S'

S O

$$dy_A = \left(\frac{y_0}{b} ds_A\right) \sin 2\pi f t$$

$$dy_B = \left(\frac{y_0}{b} ds_B\right) \cdot \sin(2\pi f t - \phi)$$

Şekildeki gibi yarık ne kadar büyüklüğü ise genlik o kadar büyük olur. Genlik o kadar büyük olur ki ekran o kadar küçük olur.

$\phi = \frac{2\pi}{\lambda} S \sin\theta$ Buradan $dy_B = \left(\frac{y_0}{b} \cdot ds_B\right) \cdot \sin(2\pi f t - \frac{2\pi}{\lambda} S \sin\theta)$

olur

Sonuç y tüm (seçilen doğrultudaki) değerler için bu değişkenlik toplamıdır.

$$y = \frac{y_0}{b} \int_0^b \sin 2\pi \left(ft - \frac{s \sin\theta}{\lambda}\right) ds$$

$$y = \frac{y_0 \lambda}{2b\pi} \left[\frac{1}{\sin\theta} \cos 2\pi \left(ft - \frac{s\sin\theta}{\lambda}\right) \right]_0^b$$

$$y = \frac{y_0 \lambda}{2\pi b \sin\theta} \left[\cos 2\pi \left(ft - \frac{b\sin\theta}{\lambda}\right) - \cos 2\pi ft \right]$$

Şu iki cos ifadesi $\cos A - \cos B = -2 \sin \frac{A+B}{2} \sin \frac{A-B}{2}$

$$-y = \frac{y_0 \lambda}{2\pi b \sin\theta} \left[2 \sin 2\pi \left(ft - \frac{b\sin\theta}{2\lambda}\right) \right] \sin \frac{2\pi b \sin\theta}{2\lambda}$$

Cos'un içindeki $\sin\theta$'lı terim ortaklı ortaya atıldı

$$y = \underbrace{\frac{y_0 \lambda}{\pi b \sin\theta}}_{\text{Genlik}} \sin \frac{\pi b \sin\theta}{\lambda} \sin 2\pi \left(ft - \frac{b\sin\theta}{2\lambda}\right)$$

$\underbrace{\qquad}_{\text{sabitler}}$

$$\beta = \frac{\pi b \sin\theta}{\lambda}$$

$$y = y_0 \frac{\sin\beta}{\beta} \sin 2\pi \left(ft - \frac{b\sin\theta}{2\lambda}\right)$$

doğrultu değiştikçe genlik ve faz değişecek

$I \sim R^2$ ile orantılı olduğundan ve $R = y_0 \frac{\sin\beta}{\beta}$

$$I = I_0^2 \frac{\sin^2\beta}{\beta^2}$$ olur. $\beta = \frac{\pi b \sin\theta}{\lambda}$ idi

Tek yarıklık saçılma ifadesi

$\beta = 0, \pi, 2\pi \ (= m\pi)$ için

(min) $\frac{\pi b \sin\theta}{\lambda}$

$\sin\theta = \frac{m\lambda}{b}$ min

Pekâ aydınlık için $\frac{dI}{d\beta} = 0$ durumuna bakalım

$$\frac{dI}{d\beta} = \frac{2(\sin\beta\cos\beta)\beta^2 - 2\beta\sin^2\beta}{\beta^4} = 0$$

olursa $2(\cos\beta)\beta - 2\sin\beta = 0$

$\beta = \tan\beta$ koşulu sağlandığından max elde edilir.

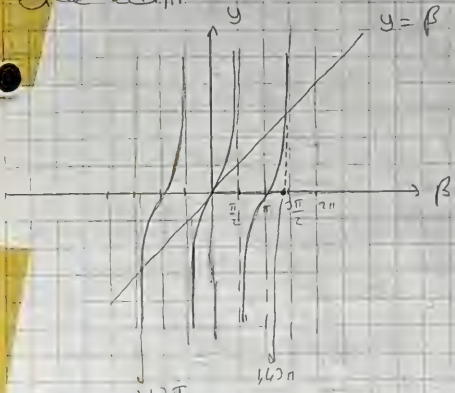

I. max (merkez) $\beta = 0$

$\beta = \frac{3\pi}{2}, \frac{5\pi}{2}, \frac{7\pi}{2}$ olmalı.

Dikkat bunlar yaklaşık

Ayırma Gücü:



Tanımlandığı gibi iki doğruyu ancak iki yakın bırakırsak.

Yalların (lekeler) ne kadar yakın olur

olursa lekeler arasındaki uzaklık ne

Birinci max olduğu yerde diğeri minimum lokal kadar yaklaşabilir

$$\sin\varepsilon = \frac{\lambda}{d}$$

Eğer dik olursa $\sin\varepsilon = 1,22\frac{\lambda}{d}$ olur

(birinci minimum oluşacak açı)

Bu uzaklık azaldığında birbirini ayıramaz. d büyüklüğü ile oynanarak ayırma gücü artırılır.

$$\varepsilon = \frac{1,22\lambda}{d}$$

Soru: Çapı pencereği 4mm, kalınlığı duvar arası 20 m. ise duvara elektronların nasıl yansıdığı?

$R = 4mm$
$L = 20m$
$\lambda = 600nm$

Pratikte $\sin\theta = 1{,}22 \frac{\lambda}{D}$ idi.

$\sin\theta = \frac{x}{L} = 1{,}22 \frac{600 \cdot 10^{-9} \cdot 20}{4 \cdot 10^{-3}}$

$x = 3{,}6\ mm$ olur.

Hata var yarık 4mm dolayında θ bağlı olarak Rayleigh deliliğinde ise:

Toplam yıldız lekesi $= 3x + 2x = 4 + 7{,}2 = 11{,}2\ mm$

Yine bilgiye olarak iki gelen ışık kaynakları paralel yarıklar ise ne olur

$\phi = k\Delta = \frac{2\pi}{\lambda} d\sin\theta$

$R = y_0 \frac{\sin\frac{N\phi}{2}}{\sin\frac{\phi}{2}} = y_0 \frac{\sin\left(\frac{N}{2}\frac{2\pi}{\lambda} d\sin\theta\right)}{\sin\left(\frac{1}{2}\frac{2\pi}{\lambda} d\sin\theta\right)}$

$d\sin\theta = m\lambda$ (max. şartı)

$\Rightarrow R = y_0 \frac{\sin\left[\frac{N\pi}{\lambda} d\sin\theta\right]}{\sin\left[\frac{\pi}{\lambda} d\sin\theta\right]}$

Burada $\beta = \frac{\pi}{\lambda} d\sin\theta$

$\beta = m\pi$ $(m = 0, 1, 2 \ldots)$ $\alpha = 0 \Rightarrow \lim_{\beta \to 0} \frac{N\cos N\beta}{\cos\beta} = N$

$\beta = 0 \Rightarrow R = N y_0 \Rightarrow \sin\theta = 0$

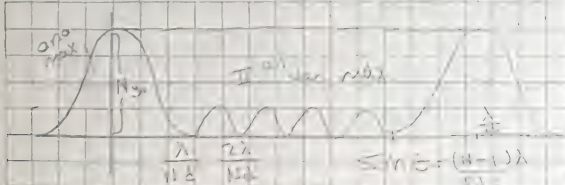

Fundamental of Optics Jenkins and White.

$m=1 \Rightarrow d\sin\theta = m\lambda \Rightarrow \sin\theta = \frac{\lambda}{d}$ olur.

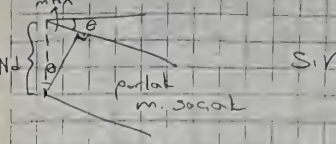

$$\sin\theta = \frac{N m\lambda}{N d} = \frac{m\lambda}{d}$$

Şimdi θ açısını $\Delta\theta$ kadar değiştirelim

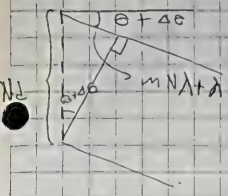

$$\sin(\theta+\Delta\theta) = \frac{Nm\lambda+\lambda}{Nd}$$

$Nm\lambda+\lambda = Nd\sin\theta(\theta+\Delta\theta)$ olur

$= Nd[\sin\theta \underbrace{\cos\Delta\theta}_{1} + \underbrace{\sin\Delta\theta}_{\Delta\theta}\cdot\cos\theta]$

Burada $\Delta\theta$ çok küçük olduğu için $\Delta\theta \cong 0$

Burada da $\Delta\theta$ çok küçük olduğundan $\sin\theta \cong \Delta\theta$ alınabilir.

Ayrıca $m\lambda = d\sin\theta$ alırsak

$Nd\sin\theta + \lambda = Nd\sin\theta + Nd(\Delta\theta)\cos\theta$

$\Rightarrow \lambda = Nd(\Delta\theta)\cos\theta$

$\Rightarrow \Delta\theta = \frac{\lambda}{Nd\cos\theta}$

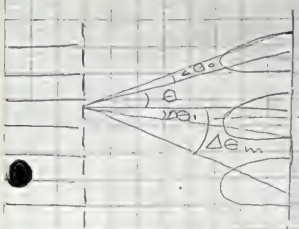

Saçaklar mertebe arttıkça genişleyecek

$\Delta\theta_0 = \frac{\lambda}{Nd}$ $\quad \Delta\theta = \frac{\lambda}{10}$

$\Rightarrow \sin\theta = k\frac{\lambda}{N}$ $(k \neq N)$ min şart

II. durumdaki max sayısı $N-2$'ye eşittir. Yarık genişliği (b) ihmal edilirse bu durum şu şekilde gerçekleşir.



$m = (1, 2, 3 \ldots)$ $\quad b\sin\theta = m\lambda$ $(m\,m)$

$b\sin\theta = (2m+1)\frac{\lambda}{2}$ $(m = 1, 2)$ max

$u = y_0 \frac{\sin u}{u}$

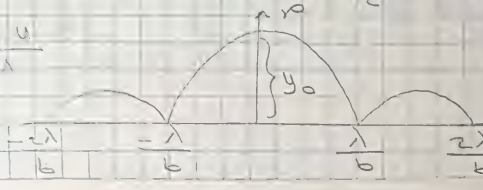

Şiddet Dağılımı:

Yarık genişliğini ihmal edersek $I = I_0 \frac{\sin^2 N\beta}{\sin^2 \beta}$ } =)

Tek yarıkta şiddet dağılımı: $I = I_0 \frac{\sin^2 u}{u^2}$

$$\Rightarrow I = I_0 \frac{\sin^2 N\beta}{\sin^2 \beta} \cdot \frac{\sin^2 u}{u^2}$$

$$R = R_0 \frac{\sin N\beta}{\sin \beta} \cdot \frac{\sin u}{u}$$

Tek yarıkta minimum şartı: $\sin\theta = \frac{m\lambda}{b}$

1. min. şartı: $m = 1 \Rightarrow \sin\theta = \frac{\lambda}{b} = \frac{2\lambda}{b}$

Optik ağda max şartı: $d \sin\theta = m\lambda$

Örn: $m = 1 \quad \sin\theta = \frac{\lambda}{d}$

$N = 6$
$d = 36$ } =) $\sin\theta = \frac{k\lambda}{Nd} \Rightarrow \sin\theta = \frac{\lambda}{6d}$

$(k = 1, 2, \dots)$

Eğer: $\sin\theta = 2,5 \frac{\lambda}{d} \Rightarrow d = ?$

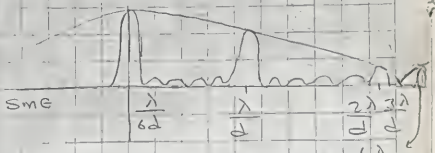

$$R = y_0 \frac{\sin N\beta}{\sin\beta} \quad \frac{\sin u}{u}$$

$$\beta = \frac{\pi d}{\lambda} \cdot 2,5 \frac{\lambda}{d} = 2,5\pi$$

$$u = \frac{\pi b}{\lambda} \sin\theta = \frac{\pi d}{\pi} \cdot 2,5 \frac{\lambda}{d}$$

$$u = \frac{2,5}{3} \pi$$

Optik ağda Dispersiyon ve Ayırma Gücü:

$d \sin\theta = m\lambda$

$m \frac{d\lambda}{d\theta} = d\cos\theta \qquad D = \frac{d\theta}{d\lambda} = \frac{m}{d\cos\theta}$ (Ayırma gücü)

$\frac{d\theta}{d\lambda} = \frac{m}{d\cos\theta} \Rightarrow d\theta = \frac{m\,d\lambda}{d\cos\theta}$ (Açısal genişlik)

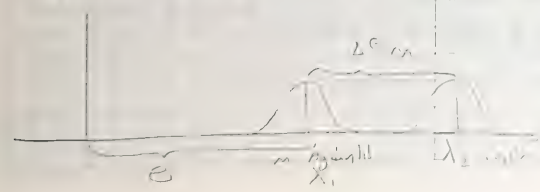

Dispersiyon: ne kadar büyükse λ'yı hesaplamak o kadar kolay olur.

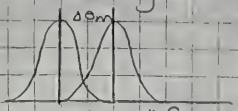

$$m\frac{\Delta\lambda}{d\cos\theta} = \frac{\lambda}{Nd\cos\theta} \Rightarrow R = \frac{\lambda}{\Delta\lambda} = N\cdot m$$

Optikçe da ayırma gücü

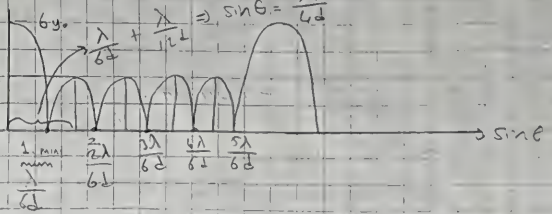

$\Rightarrow \sin\theta = \frac{\lambda}{6d}$

1. min için λ olursa 1. min. $\sin\theta = \frac{k\lambda}{Nd}$ $(k = 1, 2, \dots)$

$\sin\theta = \frac{k\lambda}{6d}$ buradan $k \neq 6d$

1. min $\Rightarrow \sin\theta = \frac{1\cdot\lambda}{6d}$

2. min: $\sin\theta = \frac{2\lambda}{6d}$ 3. min: $\sin\theta = \frac{3\lambda}{6d}$

Şimdi bu minimumların boyunu bulalım yeri gerçekte hesaplayalım.

$$R = y_o \frac{\sin\frac{N\pi}{\lambda}d\sin\theta}{\sin\frac{\pi}{\lambda}d\sin\theta}$$ } $\sin\theta$'nın herhangi birisini yerine koyalım.

$$R = y_o \frac{\sin\frac{6\pi}{\lambda}\cdot\frac{\lambda}{6d}}{\sin\frac{\pi}{\lambda}d\frac{\lambda}{1,4d}} = 1,4\,y_o \text{ olur}$$

Örn: $\lambda_1 = 589$ nm ve $\lambda_2 = 589,3$ nm ise bu iki ışık 7000 çizgi/cm olan bir optik ağ üzerine düşüyor.

a) Kaçıncı derece sayısı = ?

$\lambda = d\sin\theta \Rightarrow m_{max} = ?,26$

$m_{max} = 2$ olur

Ayrıca $d = \frac{C}{N}$ → optik ağ üzerindeki çizgi sayısı

$d = \frac{10^{-2}}{7500}$ m

b) Açısal dispersiyon = ?

$$D = \frac{\Delta\theta}{\Delta\lambda} = \frac{m}{d\cos\theta} = \frac{2}{\frac{\pi}{3\cdot10^{-6}} \times 0{,}464} = 3{,}26\cdot10^{-6} \text{ rad/m}$$

Burdan $\sin\theta = \frac{m\lambda}{d}$

Ayrıca açısal dispersiyon 2. aydınlık saçağı ayırt etme gücü olduğu için;

$\sin\theta = \frac{2\lambda}{d} \Rightarrow \sin\theta = 0{,}886$ bulunur

$\Rightarrow \cos\theta$'da $= 0{,}464$ bulunur

c) Ağın minimum aydınlatılabilir genişlik ne kadardır?

$$R = \frac{\lambda}{\Delta\lambda} = N\cdot m \Rightarrow mN = \frac{\lambda}{\Delta\lambda} \Rightarrow N = \frac{\lambda}{\Delta\lambda\cdot m} = \frac{589}{2\cdot589} = 500 \text{ çizgi}$$

$\Rightarrow b = dN = 1{,}32\cdot10^{-6}\cdot500 = 0{,}07$ cm

NOT: BİR HAVA TABAKASINDAN AYDINLIK İÇİN 1 DEĞİL 0 OLSAYDI ALDIĞIMIZ GÜNLÜK AYDINLIKTA YOK FARKLI İKİ SİYAH LİNİ O OLURDU

Örn: Sıvı için kalınlığı 320 nm olan ($n_{sıvı} = 1{,}33$) film düşünelim. Güneş ışığına normal doğrultuda bakıldığında ne renk görünür.

Beyaz ışığın dalga boyu ($4000 - 7000$) Å arasındadır. λ ?

$$2nd + \frac{\Delta}{2} = m\lambda$$

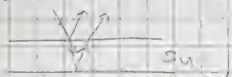

$$x_1 - x_2 = 2nd + \frac{\lambda}{2} = m\lambda \Rightarrow \lambda = \frac{2nd}{m - \frac{1}{2}} = \frac{2\cdot1{,}33\cdot320}{m - \frac{1}{2}} \text{ nm}$$

$m=1 \Rightarrow \lambda = 1702{,}4$ nm olup görünmez

$m=2 \Rightarrow \lambda = 567$ nm — Turuncu sarı renkler görünür

$m=3 \Rightarrow \lambda = 340$ nm — " görünmez

Örn: Bir optik ağda 25,4 mm. içinde düzgün olarak 10^4 çizgi yerleştirilmiştir. Bu optik ağ sodyum tuzu bulutu ile aydınlatılıyor. Bu sodyum buharında 2 değer boyu bulunuyor. Gelen ışık yüzeyin normali ile aydınlatılıyor.

$\lambda_1 = 589,00$ nm. $\lambda_2 = 589,59$ nm

a) λ_1 için ilk max olduğu açı?

$d \sin\theta = m\lambda$

$m=1 \quad \sin\theta = \frac{\lambda_1}{d} = \frac{589,00 \times 10^{-9}}{\frac{25,4}{10^4} \times 10^{-3}} = 0,23 \Rightarrow \theta = 13,4°$

b) I. max'lar arasındaki açısal ayrımlar nekadardır.

$\Delta\theta_m = ?$ $\quad d\cos\theta = \frac{d\lambda}{d\theta}$

$\Delta\theta_m = \frac{\Delta\lambda}{d\cos\theta} = \frac{0,59 \times 10^{-9}}{\frac{25,4 \times 10^{-3}}{10^4} \times \underbrace{\cos(13,4)}_{0,97}}$

$\Rightarrow \Delta\theta_m = 2 \times 10^{-5}$ rad.

c) λ_1 λ_2'ni 3. mertebede ayırt edebilmek için optik ağdan kaç çizgi kullanmak lazım

$R = \frac{\lambda}{\Delta\lambda} = Nm = \frac{\lambda}{\Delta\lambda \cdot m} = \frac{589 \times 10^{-9}}{0,59 \times 10^{-9} \times 3} \simeq 300$ çizgi

Örn: 6 yarıklı bir ağ çerçevede gösterilmiştir. Bu ağda $d = 2,5 \times 10^{-6}$ m. Burada $b \ll \lambda$ ve $d > \lambda$'dır.

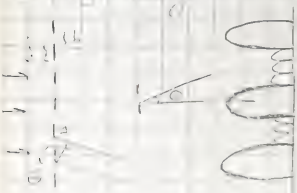

Burada ($b \ll \lambda$ ve $d > \lambda$ şartları için ucu bucağında bu şekilde açılmalıdır.)

$\sin\theta = \frac{\lambda}{d}$ $\quad \Delta = m\lambda$'dır (Aydınlık için)

$\Rightarrow \sin\theta = \frac{m\lambda}{d}$ ayrıca $d = t\Delta = \frac{Rn}{\lambda}$

$= d\sin\theta$

Sin di R'ye bölsek sin θ'ya eşit olur.

$E = E_0 \frac{\sin N\frac{\phi}{2}}{\sin\frac{\phi}{2}}$ bulunmuştuk. ϕ'yi yerine koyalım.

$E = E_0 \frac{\sin N\frac{\pi}{\lambda} d\sin\theta}{\sin\frac{\pi}{\lambda} d\sin\theta} \Rightarrow E_0 \frac{\sin N\beta}{\sin\beta}$

β olsun

$D = \frac{\Delta\theta}{\Delta\lambda} = \frac{m}{d\cos\theta}$ $\quad R = \frac{\lambda}{\Delta\lambda} = N\cdot m$

↓

Aydınlatılmış çizgi sayısı

END OF THE FIRST SEMESTER

Lecturer: Doç. Dr. Rıza Sungur

Written by

'81 - January '82*

*(January) except writing by

between October-



A.P French
7 Mayıs

MODERN PHYSICS LECTURE NOTES
by RICHARD DELANO ROOSEVELT
Lecturer: Doç. Dr. Rıza Sungur, HU

* Işık hızı tüm eylemsiz sistemler için aynıdır.
* Fizik kanunları bütün eylemsiz sistemlerde aynı biçimde ifade olurlar.

Bütün evren için geçerli olan bir eylemsiz sistem bulmak mümkün değildir. (Eylemsiz sistem ivmesiz sistem demektir)

Özel Görelilik Kuramı:

Bu kuram eylemsiz sistemler için geçerlidir. Bir nesnenin boyu hareket hızına bağlı değişir. m, V, ok ve diğerleri gibi nesnenin özellikleri senkronize olsun, 1'de sıfır hızdaki hareket etsin, 1'in yerdeki gözlemci için değişmesi ne olur.

Durgun halde ölçülen uzunluk özel uzunluktur. (l_0)

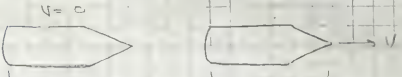

$$l = l_0\sqrt{1 - \frac{V^2}{c^2}}$$

Işık bütün sistemler için aynı hızda yayılır.

Zaman Eşleşmesi:

Bir saat yapıyoruz. Çubuğumuzun iki ucuna birer ayna yerleştiriyoruz. Yalnız alttaki aynanın yüzeyi ışığa duygun bir foto yüzeş. Bir ışık gönderirsek bu üst aynadan alta yansır ve bir tik oluşur. İki tik arası T_0 olsun.

Bu T_0 neye eşittir?

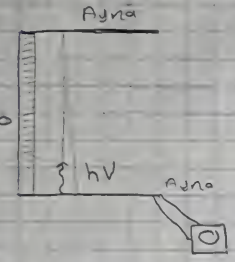

$$T_0 = 2\frac{L_0}{c}$$

Bu düzeneğin özdeşini sağa hareketlendirelim

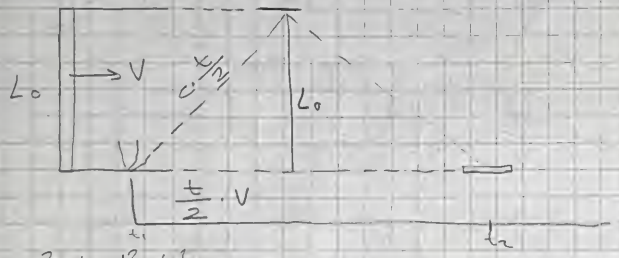

$$c^2\frac{t^2}{4} = L_0^2 + V^2\frac{t^2}{4}$$

$$\frac{t^2}{4}(c^2 - V^2) = L_0^2 \qquad t^2 = \frac{4L_0^2/c^2}{\frac{c^2 - V^2}{c^2}}$$

pay ve paydayı c^2 ye bölelim

$$t = \frac{T_0}{\sqrt{1 - \frac{V^2}{c^2}}}$$

Bu t^2 yi düşürdüğü gözlemci alıcı nüshası. Bu başlangıçta ilk tike alıp t_1 ve sonra t_2 yi belirledi. Bunu farklı konumlarda belirledi.

3. bir gözlem olacak gözlemci konum değiştirmeyip gözlem yapsa ölçtüğü zaman t'den de büyük olur.

Şimdi 3. gözlemci alalım B'nin üzerinde saatleri eş. olsun. B'yi O sistemine, A ve C'yi 1'ye yerleştirelim. Kmler bir miktar bunun önünü alacaklar. Başım ve olunan anında bir ışık atması sağlıyor. Yapılan hesaplamalar bunun önünü T_0 belirliyor. Mitrap 2.'de. C'yide mitrap önünü $V\gamma T_0$'a yerleştirelim.

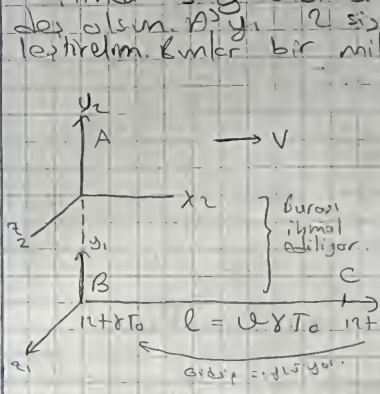

Saat 12'de mitrap dağsun. Tam önün üzerinde. A C üzerindeyken ona göre zaman $12+T_0$'dır. C'ye göre $12+\gamma T_0$'ı gösterecektir.

Eğer bu anda C ilkini radyo dalgası ile B'yi ilet. seydi B bunu $12+\gamma T_0+\frac{\ell}{c}$ alacaktı.

Yani $12:00+\gamma T_0+\frac{V\gamma T_0}{c}$

Örn: Yerdeki bir gözlemciye göre saati her saat başı bir 3599s gösteren bir uzay aracının hızı nedir?

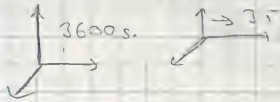

$$t=\gamma t_0$$

$$3600=\frac{3599}{\sqrt{1-\frac{v^2}{c^2}}} \Rightarrow V=7{,}1\cdot 10^6\ m/s$$

ikili yaklaşma; $\pm$

Işıkta Doppler Olayı:

$\nu_0 \quad T_0 = \frac{1}{\nu_0}$

Biz enine hareket etsek kaynağı değil sayende hareket edeceğiz. Bu kaynakta etkilenen 10. tikle 11. tik arası zaman kaynak sisteminde T_0'dır.

Gözlemci hangi zaman aralığını ölçer?

Ölçeceği zaman $T = \gamma T_0$'dır.

$$\nu = \frac{1}{T} = \frac{1}{\gamma T_0} = \nu_0 \sqrt{1 - \frac{v^2}{c^2}}$$

$1 >$

Bu enine doppler olayıdır.

Şimdi boyuna doppler olayını inceleyelim.



n tikle n+1. tik arası kaynak sisteminde ölçülen. Gözlemci sisteminde gözlemci algılama yapmasa $t_2 - t_1 = \gamma T_0$'dır.

Eğer dalga cephelerini gözlemlerse aradaki yol farkı vt, zaman ise $\frac{vt}{c}$ olur.

$$t' = \underbrace{\gamma T_0}_{\text{algılama yapmayınca}} + \underbrace{\frac{v \gamma T_0}{c}}_{\text{algılama var}} = \gamma T_0 \left(1 + \frac{v}{c}\right)$$

$$\nu' = \frac{1}{t'} = \frac{1}{\gamma T_0 \left(1 + \frac{v}{c}\right)} = \frac{\nu_0 \sqrt{\left(1 - \frac{v^2}{c^2}\right)}}{1 + \frac{v}{c}}$$

$$\nu' = \nu_0 \frac{\left(1 - \frac{v}{c}\right)^{\frac{1}{2}} \left(1 + \frac{v}{c}\right)^{\frac{1}{2}}}{1 + \frac{v}{c}} = \nu' = \nu_0 \frac{\left(1 - \frac{v}{c}\right)^{\frac{1}{2}}}{\left(1 + \frac{v}{c}\right)^{\frac{1}{2}}}$$

Hareket farkı yerine ölçüyü $\pm$ olurdu.

Kaynağın ilerleyip gözlemcinin hareketiyle kaçış hızı ile ilgili bir sabittir.

Bu yu lo.ları bir çubuğa v hızı verilirse yerdeki bir gözlemci bunu ne olarak ölçer?

$\tau_{\mu_0} = 2\times10^{-6}\ s$
$c = 0{,}998\ c$
$\ell = \tau_{\mu_0} \times v_\mu = 600\ m.$

Atmosferin üst tabakasından ölüşen bir mümeron nasıl olmuyorda deniz seviyesinde ölçülüyor?
Verilen ömür süresi τ_0'dır ve mümeronun koordinat sisteminde ölçülmüştür.

$$\gamma = \frac{1}{\left(1-\frac{v^2}{c^2}\right)^{\frac{1}{2}}} = 15{,}8$$

$\tau = \gamma\,\tau_{\mu_0} = 31{,}6\cdot10^{-6}\ s.$

$\ell = v_\mu \cdot \tau = 0{,}998 \times 3\times10^8 \times 31{,}6\times10^{-6}$

$\ell = 9500\ m,$

Mümeronun kütlesi 207 elektronun kütlesidir.

$$\mu^- \longrightarrow \nu + \bar{\nu} + e^-$$
nötrino antinötrino

Bir gözlemciyi mümeron üzerine yerleştirelim olayı nasıl gözlecektir ve dünyayı nasıl gözlecektir kendisine 0,998 c ile yaklaşan bir kez ölçecektir. Uzaklığı ℓ ölçecektir

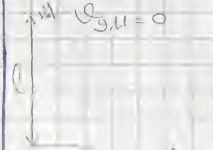

$\ell = \ell_0 \times$
$= 9500\ m \times$

$\ell = 2\cdot10^{-6}\ s \cdot 0{,}998 \cdot 3\cdot10^8\ m/s = 600\ m.$ ölçecektir

Hüseyin kendi [illegible] 2 μs

600 [illegible] x $\qquad x = \frac{600}{\gamma} = \sqrt{1-\frac{v^2}{c^2}} \qquad \ell = \ell_0\sqrt{1-\frac{v^2}{c^2}}$

Twin Paradox:

Aynı gün aynı saatte dünyaya gelmiş iki ikiz olum... yaş. Bunlar 20 yaşına gelindiğinde biri rokete binip hızla 0,8 c diğeri ise dünyada gezmeci kalıyor. Roket 20 cy uzağa gönderilip geliyor. Bu durumda Gezmeci ve Roketle giden (A ve B) kaç yaş... olur.

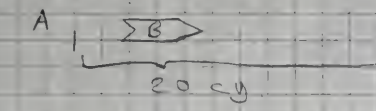

$$f_B = \frac{1}{T_0} \qquad f_B = \underbrace{\frac{1}{\gamma T_0}}_{\text{B'nin kalp atışı frekansı A'ya göre}} \qquad f_A = \frac{1}{T_0}$$

$$t = \frac{20 \cdot v}{0,8c} = 25 \text{ yıl}$$

$$T_{yer} = 2t = 50 \text{ yıl}$$

$$T_{srok} = \frac{50}{\gamma} = \frac{50}{\frac{10}{6}} = 30 \text{ yıl}$$

Sonuçta A'nın yaşı 70 yaş
Birin yaşı 50 yaş.

Eğer ikizlik bitmeyen yıldız bir ışık atması gönderilse;

$v = 1$ Sinyal/yıl
$v = 0,8c$

	Dünyadaki (A)	Roketteki (B)
* Toplam seyahat zamanı	50 yıl	30 yıl
* Gönderilen toplam sinyal	1/1 x 50 = 50 sinyal	30 sinyal
* İlk yıldan alınan bilgi sinyali	$\frac{l_0}{c} + \frac{l_0}{c} = 45$ yıl	15
* Roketin [illegible]	$45 \cdot \frac{1}{3} = 15$	[illegible]
* Seyahatin [illegible]	5 yıl	5 yıl
* [illegible]	15 sinyal	

Şimdi uzaklaşma sırasındaki frekansı bulalım.

$$f' = f_0 \left(\frac{1 - \frac{v}{c}}{1 + \frac{v}{c}} \right)^{\frac{1}{2}}$$

$$f'' = 1 \left(\frac{1 - 0{,}5}{1 + \frac{v}{c}} \right)^{\frac{1}{2}} = \frac{1}{3}$$

Yaklaşma sırasındaki ise $f'' = 1 \left(\frac{1 + \frac{v}{c}}{1 - \frac{v}{c}} \right)^{\frac{1}{2}} = 3$

SORU: Yerdeki gözlemanın saati 25 yılı gösterdiğinde şöyle bir mesaj görürsün (Bu 25. mesajımdır. Benim hesaplarıma göre yolculuğa başlarken bu mesaj roketteki saatin kaçı gösterirken yollanır.

Kütlenin Göreliliği: (Kütlenin hızla değişimi)

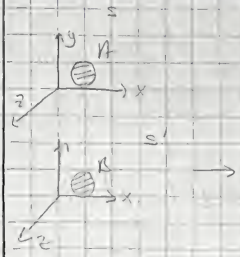

İki özdeş top S ve S' koordinatlarına konuluyor.

Belirli bir anda B ve A topları ters yönlerde hız v ile

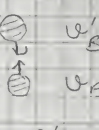

$$v'_B = v_A$$

$$v'_B = \frac{v}{T_0} \qquad v_A = \frac{v}{T_0}$$

v' hızı S' sisteminde ölçülen

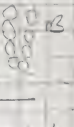

$I = Q_{14} = m_1 v_k$ (S sistemindeki gidemanın alacağı momentum)

$v_k = \frac{v}{\gamma I_0} = \frac{v}{I_0}\sqrt{1-\frac{v^2}{c^2}}$

$I_0 = \frac{v}{I_0} = m_0 \frac{v}{I_0}\sqrt{1-\frac{v^2}{c^2}}$

$v >> v_{e'}, v_k \approx 0$ $\quad m_0 = m\sqrt{1-\frac{v^2}{c^2}}$

$m = \frac{m_0}{\sqrt{1-\frac{v^2}{c^2}}} = \gamma m_0$ olur. $\quad m = \gamma m_0$



$v = 0,1c \quad m \Rightarrow \%\ 0,5$
$v = 0,9c \quad \frac{m}{m_0} = 2,5$

Soru: 2,1 · 10⁻³¹ kg lık hareket eden elektronun kütlesi nedir?

$m_0 = 2,1 \cdot 10^{-31}$ kg

$m = \frac{2,1 \cdot 10^{-31}}{\sqrt{1-\frac{0,9c^2}{c^2}}} = \frac{2,1 \cdot 10^{-31}}{\sqrt{0,01}} = 6,4 \cdot 10^{-31}$ kg.

Cisim hareketinin yeni eğitimi

$\vec{p} = \frac{m_0 \vec{v}}{\sqrt{1-\frac{v^2}{c^2}}}$ olacaktır.

$\vec{F} = \frac{d\vec{p}}{dt} = \frac{d}{dt}\left(\frac{m_0 \vec{v}}{\sqrt{1-\frac{v^2}{c^2}}}\right)$ yardımıyla bulunur.

$$E_k = \int_0^s \frac{d(mv)}{dt} ds = \int_0^v d(mv)\, v = \int_0^v d\left(\frac{m_0 v}{\left(1-\frac{v^2}{c^2}\right)^{\frac{1}{2}}}\right) v$$

Durch die $v = x$

$$\frac{m_0 v}{\left(1-\frac{v^2}{c^2}\right)^{\frac{1}{2}}} = y \quad \text{Lorentzfaktor}$$

$$\int x\,dy = xy = \int y\,dx = \frac{mv^2}{\left(1-\frac{v^2}{c^2}\right)^{\frac{1}{2}}} - \int_0^v \frac{m_0 v}{\left(1-\frac{v^2}{c^2}\right)^{\frac{1}{2}}} dv$$

$$m \quad dv$$

$$= v^2 - u^2$$
$$= 2v\,dv = 2u\,du$$

$$-m_0 c \int \frac{u\,du}{\sqrt{c^2-v^2}}$$

$$\left(-m_0 c \sqrt{c^2-v^2}\right)_0^v$$

$$m_0 c \sqrt{c^2-v^2} - m_0 c^2$$

$$m_0 c^2 \sqrt{\left(1-\frac{v^2}{c^2}\right)} = m_0 c^2$$

$$E_k = \frac{m_0 v^2}{\left(1-\frac{v^2}{c^2}\right)^{\frac{1}{2}}} + m_0 c^2 \left(\sqrt{\quad} - 1\right)$$

$$= \frac{m_0 v^2 + m_0 c^2 - m_0 v^2 - m_0 c^2 \sqrt{\quad}}{\sqrt{\quad}}$$

$$E_k = \frac{m_0 c^2}{\sqrt{1-\frac{v^2}{c^2}}} - m_0 c^2 = mc^2 - m_0 c^2$$

$$E_k = \gamma m_0 c^2 - m_0 c^2$$

$$E_k = (\gamma - 1) m_0 c^2$$

$$E_k = \Delta m\, c^2 = (m - m_0) c^2$$

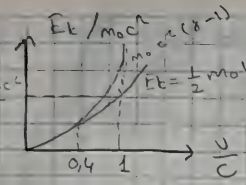

$v = 10^7$ m/s iken $E_t = \frac{1}{2}m_0v^2$ %0,08 sapma olur.
$v = 3\cdot10^7$ m/s iken %0,8
$v = 1,5\cdot10^8$ m/s iken %19
$v = 0,999c$ %630

Soru: Durgun bir cisim patlıyarak iki parçaya ayrılıyor. Parçaların her birinin durgun kütlesi 1 kg ve hızları 0,6c. Bozulmadan durgun olan cismin kütlesi nedir?

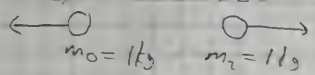

$E_{t1} = \gamma m_{01}c^2 = m_1c^2$
$E_2 = \gamma m_{02}c^2 = m_2c^2$

$E_T = M_0c^2 = 2E_1$
$M_0c^2 = 2\gamma m_0c^2$
$M_0 = 2\gamma m_0$
$M_0 = 2\frac{1}{\sqrt{1-\frac{0,36c^2}{c^2}}}1 = 2,5$ kg

Burada 0,5 kg E_t'ye dönüşmüştür.

$\vec{p} = \frac{m_0}{\left(1-\frac{v^2}{c^2}\right)^{\frac{1}{2}}}\vec{v}$ $\quad E = \frac{m_0}{\left(1-\frac{v^2}{c^2}\right)^{\frac{1}{2}}}c^2$

$m_0 = 0$ $\quad v < c$ ise $p = 0$
$E = 0$
$m_0 = 0$ $\quad v = c$ $\quad 0 \xleftarrow{p} \infty$

$$E^2 - p^2c^2 = \frac{m_0^2c^4 - m_0^2v^2c^2}{\left(1-\frac{v^2}{c^2}\right)} = \frac{m_0^2c^4\left(1-\frac{v^2}{c^2}\right)}{\left(1-\frac{v^2}{c^2}\right)}$$

$E^2 - p^2c^2 = m_0^2c^4$ (Cisim parçacıkları için geçerlidir.)

$E_T = \sqrt{m_0^2c^4 + p^2c^2}$

Birim enerji başına momentum: $p = \frac{E}{c}$ (Bu durumda $m_0 = 0$ olmalıdır.)
$E = h\nu$ olup buradan $\lambda = \frac{c}{\nu}$

Bir fotonun momentumu $p = \frac{h\nu}{c}$ olur.

LORENTZ DÖNÜŞÜMLERİ:

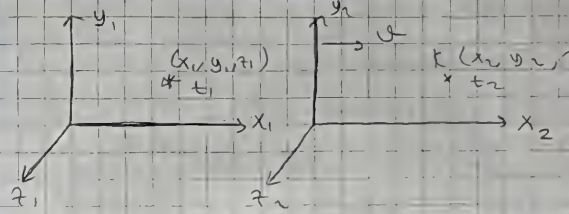

Burada bir $K(x_2, y_2, z_2)$ noktasında t_2 anında olmuş bir olayı 1 sistemindeki gözlemci (x, y_1, z_1) noktasında t_1 anında gözlemektedir. Bu iki olayı nasıl birbirine bağlayabiliriz. Hangi koordinat (x, hangi an

Bildiğimiz fizik formülleri bu sistemlerde aynı ışık hızında aynı.

v hızı çok küçükse
$x_1 = vt + x_2$
$y_1 = y_2$
$z_1 = z_2$
} Galile dönüşümü.

Lorentz dönüşümü düşük hızlarda bize bunu vermeli:

$x_1 = k(x_2 + vt_2)$ $\quad k = f(v)$

$x_2 = k(x_1 - vt_1)$ (Parantezin içi hangi sistem ait ise hepsinin indisleri aynı olacak)

$x_1 = k[k(x_1 - vt_1) + vt_2]$

$x_1 = k^2(x_1 - vt_1) + kvt_2$

$x_1(1 - k^2) = -k^2vt_1 + kvt_2$ $\quad t_2 = \frac{k^2vt_1}{kv} + \frac{x_1(1-k^2)}{kv}$

$t_2 = kt_1 + \frac{(1-k^2)}{kv}x_1$

Işık hızı bilgisi kullanacağız. $x = ct_2$

$t=0$ da ikisi sistemi sabitliyor. Bu anda orijinde bir ışık atmışsa t_1 anında nereye ulaşmıştır.
1. sistemde ct_1, 2. sistemde ct_2 yarıçaplı çemberin neresine ulaşmıştır.

$$x_2 = k(x_1 - vt_1) = ct_2$$

$$k(x_1 - vt_1) = c\left[kt_1 + \frac{(1-k^2)}{kv}x_1\right]$$

$$kx_1 - \frac{(1-k^2)}{kv}cx_1 = kvt_1 + ct_1$$

$$x_1 = \frac{ckt_1\left(1+\frac{v}{c}\right)}{k - \frac{(1-k^2)}{kv}c}$$

ikisi kısalır, k parantezine alınır.

$$\frac{1+\frac{v}{c}}{1-\frac{1-k^2}{k^2v}c} = 1 \Rightarrow \frac{v}{c} = \frac{1-k^2}{k^2v}c$$

$$\frac{v}{c} = -\frac{c}{k^2v} + \frac{c}{v}$$

$$\frac{1}{vk^2} = \frac{1}{v} - \frac{v}{c^2}$$

$$\frac{1}{k^2} = 1 - \frac{v^2}{c^2}$$

$$k = \gamma = \frac{1}{\left(1-\frac{v^2}{c^2}\right)^{\frac{1}{2}}}$$

$$x_1 = \gamma(x_2 + vt_2)$$

$$x_2 = \gamma(x_1 - vt_1)$$

$$t_2 = \gamma\left(t_1 - \frac{vx_1}{c^2}\right)$$

$$y_1 = y_2 \qquad z_1 = z_2$$

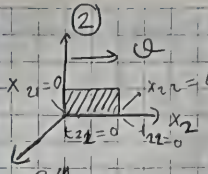

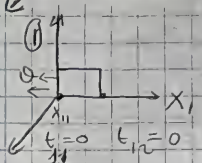

Başlangıç şartı $t_{11}=0$ $t_{21}=0$

$x_{11}=0$ $x_{21}=0$

$x_{11}=\gamma(x_{21}+v t_{21})$

$x_{11}=0$

$x_{12}=\gamma(x_{22}+v t_{22})=\gamma(L_0+v(-\frac{v x_{22}}{c^2}))$

**

O_1 ile aynı anda ilgili

$t_{12}=\gamma(t_{22}+\frac{v x_{22}}{c^2})=0$

$t_{22}=-\frac{v x_{22}}{c^2}$

O_1'in ilgili zamanı 0 olabilmesi için buna karşılık gelen t_{22} zamanı.

$x_{12}=\gamma(L_0-\frac{v^2}{c^2})$

$L=x_{12}-x_{11}=L_0(1-\frac{v^2}{c^2})^{\frac{1}{2}}$

Zaman Genleşmesi!

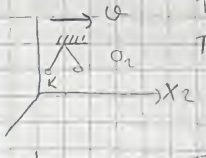

$T_0=t_{22}-t_{21}$

T_0 t_2

$t_{11}=\gamma(t_{21}+\frac{v x_{21}}{c^2})$

$T=\gamma T_0$ t_1



$t_{12}=\gamma(t_{22}+\frac{v x_{21}}{c^2})$

$T=t_{12}-t_{11}=\gamma(t_{22}-t_{21})=\gamma T_0$

Hız Dönüşümleri:

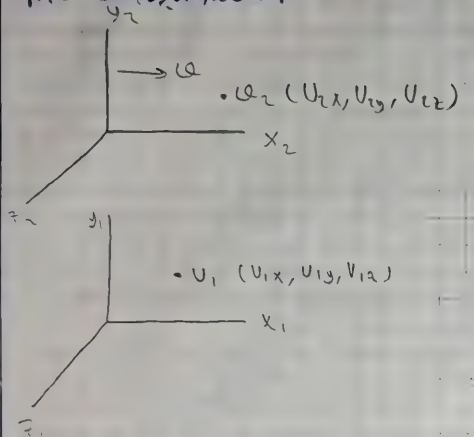

$$v_{2x} = \frac{dx_2}{dt_2}$$

$$v_{2y} = \frac{dy_2}{dt_2}$$

$$v_{2z} = \frac{dz_2}{dt_2}$$

$$x_2 = \gamma (x_1 - v t_1)$$

$$t_2 = \gamma \left(t_1 - \frac{v x_1}{c^2}\right)$$

$$dx_2 = \gamma (dx_1 - v\, dt_1)$$

$$dt_2 = \gamma \left(dt_1 - \frac{v}{c^2} dx_1\right)$$

ortalarını alıp elde ederiz.

$$v_{2x} = \frac{dx_2}{dt_2} = \frac{\frac{dx_1}{dt_1} - v}{\left(1 - \frac{v}{c^2}\frac{dx_1}{dt}\right)} = \frac{v_{1x} - v}{1 - \frac{v^2}{c^2} v_{1x}}$$

$$v_{2y} = \frac{dy_2}{dt_2} = \frac{dy_1 / dt_1}{\gamma\left(1 - \frac{v}{c^2}\frac{dx_1}{dt_2}\right)} = \frac{v_{1y}}{\gamma\left(1 - \frac{v}{c^2} v_{1x}\right)}$$

$$v_{2z} = \frac{v_{1z}}{\gamma\left(1 - \frac{v}{c^2} v_{1x}\right)}$$

Görüldüğü gibi daima v_{1x} hızlarına var

Soru: Öğlen saat 12'de dünyadaki bir referans roket tepesinden önünden batıdan doğuya doğru 0,8c hızından bir UFO geçiyor.

1 sistemi Dünya, 2 ise uzay aracı olsun. 1 ve 2'deki saatler geçiş anında aynı zamanı gösteriyor. al 2'deknin saati 12:30 iken birdeğininki kaçtır.

$$\gamma = \frac{1}{\left(1-\frac{v^2}{c^2}\right)} = 1,6667 \qquad t = \gamma t_0 = 1,6667 \cdot 30\ dk = 50\ dk$$

4 2'deki pilot 12:30'da bir mesaj gönderiyor. Bu sinyal yerdekince ne zaman alınır

$$\frac{50 \times 0,8 = 40}{c} \qquad 12:50 + 0:40 = 13:30$$

c) Dünyadaki gözlemci gelen mesajı alır almaz mesaj gönderince uzay aracındaki kadar zamanda alır



$c\,\Delta t$

$90 * 0,8 t + v\,\Delta t = c\,\Delta t$

$72 * 0,8 = 0,2c\,\Delta t$

$\Delta t = 360\,dk = 6$ saat (yerdekine göre.)

$12:30 + 6:00 = 19:30$ (yere göre uçan saat)

bu sırada roketteknin ki saati gösterir

$$\frac{360}{\gamma =} \qquad 360 : \gamma = 270\,dk = 4,5 \text{ saat} \qquad 12:00 + 4:30 = 16:30$$

Örnek: Relativistik bilesi 2.08×10^{-27} kg olan bir proton'un kinetik enerjisini ve hızını hesaplayınız. ($m_{rp} = 1,67 \times 10^{-27}$ kg. durgun kütle)

$$m = \gamma m_0 = \frac{m_0}{\left(1 - \frac{v^2}{c^2}\right)^{\frac{1}{2}}} \Rightarrow 2,08 \times 10^{-27} = \gamma\, 1,67 \times 10^{-27}$$

$$\gamma = 1,2$$

$$E_k = m_0 c^2 [\gamma - 1] = 1,67 \times 10^{-27} \cdot 9 \times 10^{16} (0,2) \text{ J} \quad \frac{1}{1,6} \cdot 10^{13}$$

$$= 187 \text{ MeV} \quad \text{(elektron cinsinden)}$$

$$\gamma = 1,2 = \frac{1}{\left(1 - \frac{v^2}{c^2}\right)^{\frac{1}{2}}} \Rightarrow v = 1,32 \times 10^8 \text{ m/s}$$

Örnek: Bir elektron $v_1 = 1,2 \times 10^8$ m/s hızından $v_2 = 2,6 \times 10^8$ m/s hızına çıkarılırken ΔE_k değerini kaç MeV artırmalıyız?

$$W = \Delta K \Rightarrow W = E_{k_2} - E_{k_1} = m_0 c^2 (\gamma_2 - 1) - m_0 c^2 (\gamma_1 - 1)$$

$$W = m_0 c^2 (\gamma_2 - \gamma_1)$$

$$W = m_0 c^2 (1,67 - 1,09)$$

$$W = 0,51 \text{ MeV} (1,67 - 1,09)$$

$$W = 0,30 \text{ MeV}$$

Örnek! Dünyadan bir astronot Andromeda galaksisine $2,2 \times 10^6$ ışık yılı uzaklıktaki bir gezegene gemisi ile 10 yıllık sürede gidiyor. Yolculuk hızı sabit kabul edilerek hız değeri bulunuyor. Buna göre astronot gemisinin hızını nasıl bulur?

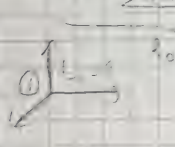

Dünya yörüngesinde yıl nedir? Dünya'nın hızı

$$v = \frac{l_0}{\gamma} \Rightarrow \frac{l_0}{v \cdot \gamma} = t$$

$$\frac{l_0}{\gamma \cdot v} = 10 \text{ yıl}$$

$v \cong c$ olur

$t_1 = \gamma t_2$ olur $\Rightarrow t_1 = 2{,}2 \cdot 10^5 t_2$

Madem' arada 10 yıl daha yaşıyor ve hızda c kadar $\ell = 10$ cy olur ona göre

Bu durumda $\gamma = \frac{\ell_0}{\ell}$ olur $\gamma = \frac{2{,}2 \times 10^6}{10}$

$\gamma = 2{,}2 \times 10^5$ olur

$t_1 = 2{,}2 \times 10^6$ yıl

* **Örnek:** A, B ve C üç gözlemci roketle verilirken kendi durgun sistemine göre frekansı ν_0'dır. Şekildeki gibi hareket ediyorlar.

a) C tarafından algılanan B'nin frekansı nedir?

b) C tarafından algılanan A'nın frekansı nedir?

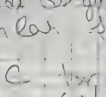

C'ye göre durum bu

$$\nu_{CB} = \nu_0 \left(\frac{1 - v/c}{1 + v/c}\right)^{\frac{1}{2}}$$

$\nu_{CA} =$

v_{1x} (A'nın C'ye göre hızı olmak üzere):

$$v_{1x} = \frac{v_{2x} + v}{1 + \frac{v_{1x} v}{c^2}}$$

$$v_{1x} = v_{AC} = \frac{-v + (-v)}{1 + \frac{v^2}{c^2}} = -\frac{2v}{1 + \frac{v^2}{c^2}}$$

(– yön ile gidiyor bu nedenle ν_{CA}'da yalnız bu şekilde bırakılır.)

$$\nu_{CA} = \nu_0 \left(\frac{1 - \frac{2v}{c(1 + v^2/c^2)}}{1 + \frac{2v}{c(1 + v^2/c^2)}}\right)^{\frac{1}{2}}$$

$$v_{cA} = \left(\frac{\left(1+\frac{v^2}{c^2}\right)c - 2v}{\left(1+\frac{v^2}{c^2}\right)c + 2v} \right)^{\frac{1}{2}} = v_0 \left(\frac{1+\frac{v^2}{c^2} - \frac{2v}{c}}{1+\frac{v^2}{c^2} + \frac{2v}{c}} \right)^{\frac{1}{2}}$$

$$v_{cA} = v_0 \left(\frac{1-\frac{v}{c}}{1+\frac{v}{c}} \right)$$

Sodan Van'yi tulup buradan v_{cB}'ye geçeriz.

Örnek: Bir olaylar için x ekseni üzerinde x_1 konumunda yapılan ve $x_2 = x_1 + \ell$ konumundan sorgulanıyor. X ekseni boyunca $v = \beta c$ hızıyla hareket eden bir referans sistemine göre

a) Sayılmanın ve sorgulanmanın aralarındaki ℓ uzunluğu nedir?

b) Sayılma ve sorgulanma arasındaki zaman farkı ne kadar?

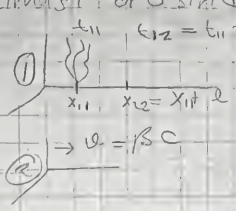

$\ell_2 - ?$ $\quad \Delta t_2 = t_{22} - t_{21}$

İki sistemin ilişkisi:

$$\left.\begin{aligned} x_2 &= \gamma (x_1 - v t_1) \\ t_2 &= \gamma \left(t_1 - v \frac{x_1}{c^2}\right) \end{aligned}\right\} \text{Lorentz dönüşümü}$$

$$x_{21} = \gamma (x_{11} - v t_{11}) \qquad t_{21} = \gamma \left(t_{11} - v \frac{x_{11}}{c^2}\right)$$

$$x_{22} = \gamma (x_{12} - v t_{12}) \qquad t_{22} = \gamma \left(t_{12} - v \frac{x_{12}}{c^2}\right)$$

$$\ell_2 = x_{22} - x_{21} = \gamma (x_{12} - x_{11}) - v \gamma (t_{12} - t_{11})$$

$$= \gamma \ell - v \frac{\ell}{c} \gamma = \gamma \ell \left(1 - \frac{v}{c}\right)$$

$$= \ell \frac{1}{\sqrt{1-\frac{v^2}{c^2}}} \left(1 - \frac{v}{c}\right)$$

$$\Rightarrow \ell_2 = \ell \frac{\left(1-\frac{v}{c}\right)^{\frac{1}{2}}}{\left(1+\frac{v}{c}\right)^{\frac{1}{2}}}$$

$\frac{l_2}{\Delta t_2}$, bize ışık hızını vermesi lazım.

$\Delta t_2 = t_{21} - t_{11} = \gamma\left(\frac{l}{c} - \frac{v\,l}{c^2}\right) = \frac{\gamma l}{c}\left(1 - \frac{v}{c}\right)$

Örn: Laboratuvarda hareketli bir K mezonu π mezonuna ayrılıyor. Bunlardan biri hareketli kütlemotaştırıcı K'nin durgun enerjisi E_{KK} ve $E_{K\pi}$ nedir.

$m_{oK} = 494\ MeV \quad m_{o\pi} = 137\ MeV$

Bu tip soruda da enerji korunumu ve momentumun korunumu kullanılır.

$K \longrightarrow \pi + \pi_o$

$P_K = P_\pi$ ve $E_K = E_\pi + E_{\pi_o}$

Momentum kinetik enerji ile bağlantılıdır.

$E^2 = p^2c^2 + m_o^2c^4 = m^2c^4 = (m_oc^2 + E_K)^2$

$p^2c^2 + m_o^2c^4 = m_o^2c^4 + 2m_oc^2E_K + E_K^2$

$p^2c^2 = 2m_oc^2E_K + E_K^2$

Bunu K ve π mezonları için yazalım.

$2m_{oK}c^2E_{KK} + E_{KK}^2 = 2m_{o\pi}c^2E_{K\pi} + E_{K\pi}^2$

$E = m_oc^2 + E_K$

$m_{oK}c^2 + E_{KK} + m_{o\pi}c^2 + E_{K\pi} + m_{o\pi}c^2 = 2m_{o\pi}c^2 + E_{K\pi}$

Denklem çözme yöntemiyle bulunabilir.

$E_{KK} + 2m_{o\pi}c^2 = E_{K\pi} + 2m_{o\pi}c^2$ (I)

$E_{KK} = E_{K\pi}$ (II) Bulunur.

$E_{KK} = 494\ MeV$ ve $E_{K\pi} = 494\ MeV$

Örnek:

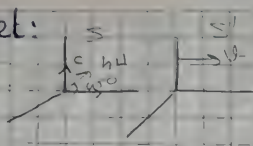

S ve S' eylemsiz sistemlerini alıştırma anlamında düşünün.

$t=0$ anında bir fotonun S'nin başlangıç noktasını x ekseniyle α açısı yaptığı anda fotodiyot S' sisteminde x' ekseni ile θ' açısı yapan doğrultuda hareket etmektedir. Sorunun çözümünde bir yere kadar ışığın hızı c olan bir parçacık olarak düşünebilirsiniz. S'de durgun olan bir cisim x ekseni ile θ' açısı yapıyor acaba S'ünde x ile ne yapıyor acaba?

$$\left.\begin{aligned} v_x &= \frac{c}{r_2} \\ v_y &= \frac{c}{r_2} \end{aligned}\right\} \Rightarrow v_{x'} = \frac{v_x - v}{1 - \frac{v_x v}{c^2}} \qquad v_{y'} = \frac{v_y}{\gamma\left(1 - \frac{v_x v}{c^2}\right)}$$

$$v_{x'} = \frac{\frac{c}{r_2} - v}{1 - \frac{\frac{c}{r_2} \cdot v}{c^2}} \qquad v_{y'} = \frac{\frac{c}{r_2}}{\gamma\left(1 - \frac{\frac{c}{r_2} v}{c^2}\right)}$$

Cisim ara bir sabit $\tan\theta' = \frac{\left(1 - \frac{v^2}{c^2}\right)^{\frac{1}{2}}}{\left(1 - \frac{r_2 v}{c}\right)}$

Fotonun aradaki aynı mantıkla $\tan\theta_2' = \frac{\left(1 - \frac{v^2}{c^2}\right)^{\frac{1}{2}}}{\left(1 - \frac{r_1 + v}{c}\right)}$

Çubuk için $\frac{\ell_0}{r_2}$ (S'de)

$\frac{\ell_0}{r_2}$ → S'ünde değişmez

S'ünde $\tan\theta_3' = \frac{\ell_0}{r_1} \cdot \frac{\gamma r_2}{\ell_0} = \gamma$

$$\tan\theta_3' = \frac{1}{\left(1 - \frac{v^2}{c^2}\right)^{\frac{1}{2}}}$$

Soru:

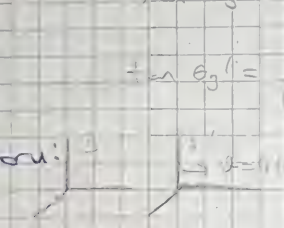

5 Hafta ödevlere göre:
a) Poynting vektörü boyunca akış nedir?
b) Poynting vektörü birimi nedir?

DALGANIN PARÇACIK ÖZELLİĞİ:

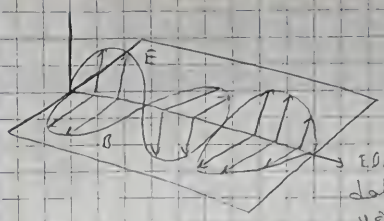

$$c = \frac{1}{(\mu_0 \varepsilon_0)^{\frac{1}{2}}}$$

$$E = cB$$

$$\vec{S} = \frac{1}{\mu_0} \vec{E} \times \vec{B}$$

Elektromagnetik dalga yönü S yönündedir. şiddeti ise E veya B'nin karesi ile orantılıdır.

S: Poynting vector

Foto elektrik olay: Metal yüzeylere düşen ışığın, e⁻ sökmesi olayıdır.

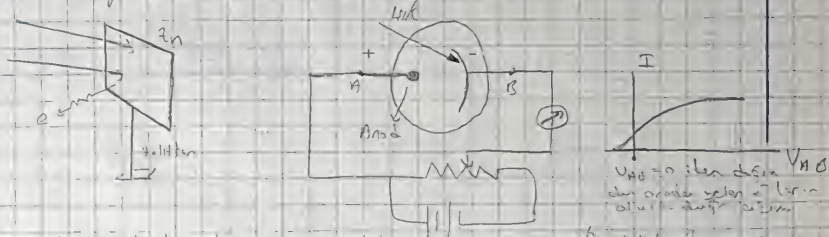

Bu olay, dalga teorisi açıklaması $I = 10^{-6}$ W/m² ışığın etkisiyle sökülebilmelidir. Bu o fırlatılan en hızlı e⁻ için geçerli.

Gelen ışığın 1 atom tabakasında geçirildiğinde yüzeyin 1 m² alanında bulunan elektronlar (10^{19} elektron/m² kadar)

Tek bir atomal bölgede bir m² zamanda ne kadar ışık düşer (1 atomlu alanın ışığı 10^{-19} m²dir)

$\frac{10^{-6}}{10 \cdot 10^{19}}$ W/atom (tek atomal birimin soğurduğu ışık enerjisi)

$E = 1eV = P t$

$t = \frac{1{,}6 \cdot 10^{-19} J}{10^{-25}} = 1{,}6 \cdot 10^{6}\ s = 2$ hafta.

2 hafta sonra e^- gelmesi gerekiyor gözlüyor. Halbuki bu süre 10^{-9} sn. dir.

Başka bir buram bunu açıklamakta. Çünkü elektromagnetik buram bunu açıklayamıyor.

Einstein ışık taneciklerinin e^- söktüğünü söylüyor

$$h\nu = W + \underbrace{\frac{1}{2} m V_{max}^2}_{\text{çıkan } e^- \text{'lerin max enerjisi}}$$

Bunu açarsak;

Metal yüzeyini bir enerji diyagramı ile gösterelim.

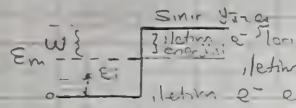

Em'den sıkılan e^-'nun kinetik enerjisi en yüksek olur

$$E_m = \frac{h^2}{2m} \left(\frac{3n}{8\pi} \right)^{\frac{2}{3}}$$

n: birim hacimdeki free e^-
m: e^- kütlesi



Görüldüğü gibi enerji arttıkça e^- sayısı artıyor. Sıcaklıkla ise kısa sürede aralarda beraber gidiyor ve sıcaklıkla değişiyor.

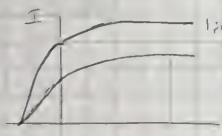

A, B, C [illegible] olsa da $W_A > W_B > W_C$

E_{max} | $f(\nu)$ [illegible]

$h\nu = W$ 'den büyük ν değerlerinde e⁻ sökülmesi.

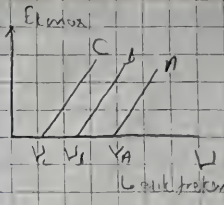

Doğruların eğimleri aynıdır. $E_k = h\nu - W$
Eğim h'ı verir.

Problem: $\lambda = 350$ nm ve şiddeti $I = 1$ W/m² olan bir ultraviyole ışık bir K yüzeyine düşürülüyor. Metalin iş fonksiyonu $W = 2{,}2$ eV'dur.

a) Fotoelektronların $E_{kmax} = ?$

b) Gelen fotonların %0,5'i fotoelektron üretiyorsa ve K'nın yüzey alanı 1 cm² ise yüzeyden kaç fotoelektron sökülür?



$$E_f = \frac{6{,}62 \cdot 10^{-34}}{1{,}6 \cdot 10^{-19}} \cdot \frac{3 \times 10^8}{350 \cdot 10^{-9}} - 2{,}2 \text{ eV}$$

Çevirme faktörü

$$E_f = \frac{6{,}62 \cdot X}{1{,}6 \times 3{,}7} - 2{,}2 = 1{,}35 \text{ eV}$$

b) Birim yüzeye N fotonun düştüğünü.

$$I = \frac{\text{foton sayısı}}{m^2 \, s} = N h\nu$$

$$I = \frac{P}{A} \Rightarrow P = AI \quad \Rightarrow \quad n_{e^-} = \frac{IA}{h\nu} \cdot 0{,}005 \; \frac{\text{e sayısı}}{\text{foton sayısı}}$$

$$n_{e^-} = \frac{1 \cdot 10^{-4} \cdot 350 \cdot 10^{-9}}{6{,}62 \cdot 10^{-34} \cdot 3 \cdot 10^8} \cdot 0{,}005$$

$$n_{e^-} = 8{,}8 \cdot 10^{11} \text{ dak}$$

X-ışınları:

İki levhaya yüksek voltaj uygulayalım. Şöyle elde edilir:

e⁻'ların çoğu atomlarla etkileşmeye girerek yüksek kinetik enerjisini yavaş yavaş termal (E_k'sı) enerjiye dönüştürüyor. Diğer e⁻'lar çok atomla etkileşmeden anotu vuruyor.

Çıkan X ışınları için $\lambda_{min} = ?$

İki kapsül için aynı. $E_{k_i} = 0$ olmalı.

$E_{ll} - E_{k_i} = h\nu_{max}$

$$h\frac{c}{\lambda} = eV \Rightarrow \lambda_{min} = \frac{hc}{eV}$$

X-Işınları Kırınımı

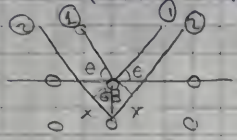

n=1 de en şiddetli kırınım deseni elde edilir.

$2x = 2d\sin\theta = n\lambda$

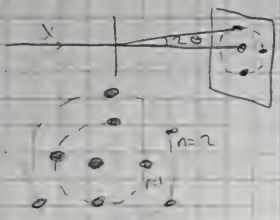

Kırınıma uğramayan desenle uğrayan arasındaki açı 2θ dır.

Fotoğrafı daha şiddetlidir.

Şimdi NaCl'de bu olayı inceleyelim.

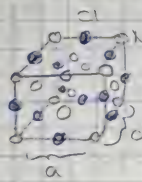

$\frac{1}{8} \times 8 = 1$ (köşelerden) Cl için

$\frac{1}{2} \times 6 = 3$ (yüzeylerden) Na için

$\frac{1}{4} \times 12 = 3$ (kenarlar için)

Merkezde 1 Cl 4Cl ve 4Na var

Cl = 35,5 Na = 23,0 $\Rightarrow$ 58,5 gr

$$d = \frac{m}{V} = \frac{m}{a^3} = \frac{4 \times 58,5 \times 10^{-3} / N_A}{a^3} = 2,16 \times 10^3 \text{ kg/m}^3$$

Buradan $a^3 = 18,1 \cdot 10^{-29}\ m^3 \Rightarrow a = 2,66 \times 10^{-10}$ m

Bu ile Na ve Cl atomlarının yarıçapları bulunabilir.

Örneğin $d = 5,66 \cdot 10^{-10}$ / 2 = 2,8 ...

Şimdi dalga boyunu bulalım.

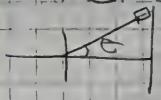

θ, n ve d'yi biliyorum buradan λ'yı bulabiliriz.

2 türlü X-ışını spektrumu vardır. Sürekli ve çizgi spektrumu.



Gelen e^- sıçrar ve E_t'yi değişir.



$h\nu_{max} = eV$ olur

Chompton Olayı:
Işığın tanecikli tabiatını ortaya çıkaran olaylardan biridir.

$h\nu$ enerjili fotonun kütlesi $h\nu = mc^2$
$\Rightarrow m = \frac{h\nu}{c^2}$

Momentumu ise $p = \frac{h\nu}{c}$

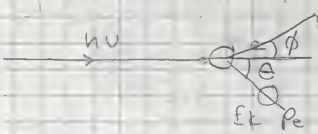

Bu çarpışma da enerji ve momentum korunumu vardır.

$E_t = h\nu - h\nu'$

$\vec{P}_{h\nu} = \vec{P}_{h\nu'} + \vec{P}_e$ Şimdi bunu açalım

$\frac{h\nu}{c} = \frac{h\nu'}{c}\cos\phi + P_e\cos\theta$ x bileşeni

$0 = \frac{h\nu'}{c}\sin\phi - P_e\sin\theta$ y bileşeni

Bu iki ifadenin karelerini alıp toplayalım ama önce e'lerden kurtulalım

$p_e c \cos\theta$ ve $p_e c \sin\theta$'yı yalnız bırakalım

$$[h\nu - h\nu' \cos\phi]^2 = p_e^2 c^2 \cos^2\theta$$
$$(h\nu' \sin\phi)^2 = p_e^2 c^2 \sin^2\theta$$

$$(h\nu)^2 + (h\nu')^2 - 2(h\nu)(h\nu')\cos\phi = p_e^2 c^2$$

$E = m_0 c^2 + E_k = mc^2$

$E^2 = p^2 c^2 + m_0^2 c^4$ idi.

Daha sonra $h\nu = E_k$ için $p^2 c^2 = E_k^2 + 2E_k m_0 c^2$

Burada

ve $p_e^2 c^2 = (h\nu - h\nu')^2 + 2(h\nu - h\nu')m_0 c^2$

Böylece $-2(h\nu)(h\nu')\cos\phi = -2(h\nu)h\nu' + 2(h\nu - h\nu')\frac{m_0}{c^2}$

bulunur.

$$2(h\nu)(h\nu')[1 - \cos\phi] = 2(h\nu - h\nu')m_0 c^2$$

Her iki tarafı $2h^2/c^2$'ye bölelim.

$$\frac{\nu}{c}\cdot\frac{\nu'}{c}[1 - \cos\phi] = \left(\frac{\nu}{c} - \frac{\nu'}{c}\right)\frac{m_0 c}{h}$$

$$\frac{1}{\lambda}\cdot\frac{1}{\lambda'}[1 - \cos\phi] = \left(\frac{\lambda' - \lambda}{\lambda\lambda'}\right)\frac{m_0 c}{h}$$

$$\lambda' - \lambda = \frac{h}{m_0 c}(1 - \cos\phi)$$

↳ Lin atomun Eşitliği

$\phi = 180$ olursa λ'_{max} olur. $\lambda'_{max} - \lambda = \frac{2h}{m_0 c}$

$\frac{h}{m_0 c}$: comptan dalga boyu

Elektron için $\lambda_{comp} = \frac{h}{m_e c} = 2{,}426 \cdot 10^{-12}$ m

Bu durumda $\Delta\lambda_{max} = 0,024$ Å olur
X ışınları bandında çalışmaktayız. İyi bir gözlem için
örneğin gelen foton dalga boyu $\lambda = 10$ pm,
saçılma açısı $\phi = 45°$
a) saçılan fotonun dalga boyu nedir?
b) Saçılan (yani x ışınının) max dalga boyu nedir?
c) saçılan e^- ler için de max E_k ne olur.

a) $\lambda' - \lambda = 0,024(1 - 0,7)$
$\lambda' - 10\text{ pm} = 2,4\,03 \Rightarrow \lambda' = 10,8\text{ pm}$.

b) $\lambda'_{max} = 14,8$ pm

c) $E_{k\,max} = 6,62 \times 10^{-34} \times 3 \times 10^8 \left(\frac{10^{12}}{10} - \frac{10^{12}}{14,8}\right)$
$= 6,5 \times 10^{-15}\text{ J} = 40,8\text{ keV}$.



Elektron çiftinin oluşumu ve Pozitronyum yok olması:

Bir foton geliyor ve bir e^- ve pozitron oluşuyor. Bunu enerjilerde böyle bir çift oluşturur

$h\nu = 2m_0c^2 + E_k$

$h\nu_{min} = 2m_0c^2 = 1,02$ MeV'lik bir foton $\bar{e}$ ve e^+ oluşturur

e^+ ve e^- bir araya gelirse iki foton oluşur. Çünkü momentumun korunumu ilkesi sağlanır

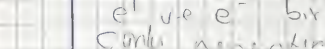

Endüstrik nesneler 951 MeV olur.

Gravitasyonel kırmızıya kayma:
Kırmızıya kayma dopplerde daha büyük.



$E_T = sbt$

$m_1 \rightarrow v_f$

$\Delta E_p = -\Delta E_k$

Bir fotonu saldığımızı düşünelim.

$$0 - G\frac{m_1 M}{R} = -(E_{k_2} - E_{k_1})$$ Parçacıklar

Fotonda



Çekim alanından kurtulur

$h\nu'$

$$0 - \left(G\frac{h\nu}{c^2}\frac{M}{R}\right) = -(h\nu' - h\nu)$$

$$h\nu' = h\nu\left(1 - G\frac{m}{c^2 R}\right) \qquad \frac{G}{c^2} = 7{,}4 \times 10^{-28}\ m/kg$$

$\frac{\Delta\lambda}{\lambda} = 10^{-5}$ için fotonlar ... ulaşır beyaz cüce ...
fotonlar.

Soru:

c)

D

$\nu = 5 \times 10^{15}$ Hz
$1{,}5 \times 10^{11}$ m.

$I = 1{,}4 \times 10^3$ W/m²

a) 1 m² ... yüzeye düşen foton sayısı?
b) $(P_r)_{ışık}$ ve yaydığı ... (güneş sayısı 1,5)
c) n fotonu sayısı $1/n$ (Dünya yüzeyi ... yaklaşık bölgede)

$I = n h\nu$ → Foton sayısı

$n = \frac{I}{h\nu} \rightarrow \frac{1,4 \times 10^3}{6,62 \times 10^{-34} \cdot 5 \times 10^{15}}$

$= 4,2 \times 10^{21}$ foton/m²s

b) $I = \frac{P_T}{S}$ $\quad P_T = 4\pi r^2 \cdot I$

$P_T = 4 \cdot \pi \times (1,5 \cdot 10^{11})^2 \cdot 1,4 \times 10^3 = 3,3 \cdot 10^{26}$ Watt

$N_T = \frac{P_T}{h\nu} = 1,3 \cdot 10^{45}$ foton/s

c)



Bir boru (boyu 1 birim kadar). Dalgaylıyla 1 s. içinde tüm fotonlar tabanda geçecektir. (Tüp içindekiler)

Tüpteki ışık şiddetini bilişiyor.

$n \cdot c \cdot 1 \cdot h\nu = I$

(boyu, içindeki foton sayısı, Işık sürati)

$n = \frac{I}{h\nu c} = \frac{1,4 \cdot 10^3}{6,62 \cdot 10^{-34} \cdot 5 \cdot 10^{15} \cdot 3 \cdot 10^8}$

$n = 1,4 \cdot 10^{13}$ foton/m²s

Soru: Tungsten için eşik dalga boyu $\lambda = 230$ nm dir. Çıkan elektronların E_{max} değeri 1,5 eV olması için fotoelektrik aydınlatmada kullanılan ışığın dalga boyu ne olmalıdır.

$h\nu = \phi + E_{kmax}$

$h\nu = h\nu_{min} + E_{kmax}$

$\frac{c}{\lambda} = \frac{c}{\lambda_{max}} + \frac{E_{kmax}}{h}$

$\frac{1}{\lambda} = \frac{1}{\lambda_{max}} + \frac{E_{kmax}}{hc} \Rightarrow \frac{1}{\lambda} = \frac{1}{230 \cdot 10^{-9}} + \frac{1,5 \times 1,6 \cdot 10^{-19}}{6,61 \cdot 10^{-34} \cdot 3 \cdot 10^8}$

$\frac{1}{\lambda} = 5,55 \cdot 10^6$ m⁻¹

$\lambda = 1,8 \cdot 10^{-7}$ m

$\lambda = 180$ nm

13) Gücü 1,5 mW ve dalga boyu 400 nm olan ışık bir fotoelektrik hücreye yöneltiliyor.

Fotokatoda gelen tüm güce ışık akımı denir. Gelen fotonların %0,1'i e^- sökülüyorsa fotoelektrik hücre üzerindeki akım şiddeti nedir?

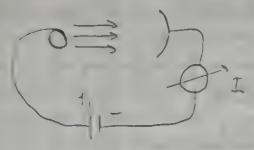



$N = \frac{\phi}{h\nu}$ (Birim zamanda fotokatotta gelen foton sayısı)

$N = \frac{1,5 \cdot 10^{-3}}{\frac{6,62 \cdot 10^{-34} \cdot 3 \cdot 10^8}{400 \cdot 10^{-9}}} = 3 \cdot 10^{15}$ foton/s

$N_e = \frac{3 \cdot 10^{15}}{1000} = 30 \cdot 10^{12}$ elektron/s

$I = \frac{dQ}{dt} = N_e \cdot e = 3 \cdot 10^{12} \cdot 1,6 \cdot 10^{-19} = 4,8 \cdot 10^{-7}$ A

Soru: Bir foton serbest bir e^- la çarpışınca tüm momentumunu ve enerjisini e^-'a aktarıyor.

$p_{h\nu} = \frac{h\nu}{c}$ $\quad E = h\nu$ } Tanımını aldığımız

$\frac{h\nu}{c} = p_e$ $\quad p_e c = \sqrt{E_L^2 + 2E_L m_0 c^2}$

$\frac{h\nu}{c} = \frac{\sqrt{E_L^2 + 2E_L m_0 c^2}}{c}$

E_L: e^-'un çarpışma öncesi enerjisi
m_0: elektronun

$(h\nu)^2 = E_L^2 + 2E_L m_0 c^2$ $\quad h\nu = E_k$

$E_k^2 = E_L^2 + 2E_L m_0 c^2$ bu eşitliğin sağ tarafına $2E_L m_0 c^2$ eklenirse bir kusursuz kare ifade elde edilir. Bu yüzden bu ifade ile toplanıp çıkarılmıştır.

Soru: Bir potasyum Na'lı bir bileşiğinin $1,38 \cdot 10^{-22}$ kg'lık bir potasyum Na'lı bileşiğinin kütlesi 74,55 g/mol'dür.

Potasyum Cl kristali yapısında NaCl kristalinin aynısıdır.

a) K ⋯ Cl, $d = ?$

b) Bu bileşik $\lambda = 0{,}1$ nm dalga boylu bir ışıkla aydınlatılırsa yapıcı girişim veren en küçük açılı ışık demeti nedir.

$\frac{1}{8} \cdot 8 = 1\ K \qquad 6 \cdot \frac{1}{2} = 3\ K$

Toplam $K = 4\ K$

$1 + 12 \cdot \frac{1}{4} = 4\ C$ (komşu)

$$\rho = \frac{m}{V} = \frac{4\, m_{KCl}}{a^3} = \frac{4\ \frac{74{,}55 \cdot 10^{-3}}{6{,}02 \cdot 10^{23}}}{2d^3} = 1{,}98 \cdot 10^3$$

$d = 3{,}2 \cdot 10^{-10}$ m.

b)

$2d \sin\theta_m = n\lambda$

$\sin\theta_m = \frac{\lambda}{2d} \qquad \theta_m = 28^\circ$

Soru!



$$\lambda' - \lambda = \frac{h}{m_0 c}(1 - \cos\phi)$$

$$\frac{c}{\nu'} - \frac{c}{\nu} = \frac{h}{m_0 c}(1 - \cos\phi)$$

$$\frac{1}{h\nu'} - \frac{1}{h\nu} = \frac{1}{m_0 c^2}(1 - \cos\phi)$$

$$\frac{10^5}{9} - \frac{10^5}{10} = \frac{10^{-5}}{0{,}51}(1 - \cos\phi)$$

$\cos\phi = 0{,}4 \quad \phi = 66^\circ$

y. $E_k = ?$ $E_k = h\nu - h\nu' = 1 \text{ eV}$

Soru: 500 nm dalga boylu X-ray'e hedefin 120° lik açıyla saçılıyorlar.

a) $\Delta\lambda = \lambda' - \lambda = ?$

b) Çekilen fotonle ile geri tepen e⁻ arasındaki açı = ?

c) $E_{ke} = ?$

a) $\Delta\lambda = \frac{h}{m_0 c}(1 - \cos\phi)$

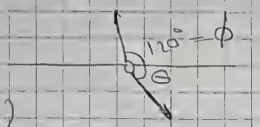

$\Delta\lambda = \frac{6{,}62 \cdot 10^{-34}}{9{,}1 \cdot 10^{-31} \cdot 3 \cdot 10^{8}}(1 + 0{,}5)$

$\Delta\lambda = 3{,}6 \text{ pm}$

b) $\frac{h\nu'}{c}\sin 60 = p_e \sin\theta$

$p_e c = \sqrt{E_k^2 + 2E_k m_0 c^2}$

$E_k = h\nu - h\nu' = h\left(\frac{c}{\lambda} - \frac{c}{\lambda'}\right)$

$E_k = hc\left(\frac{1}{\lambda} - \frac{1}{\lambda'}\right) = 6{,}62 \cdot 10^{-34} \cdot 3 \cdot 10^{8}\left(\frac{10^{12}}{50} - \frac{10^{12}}{53{,}6}\right)$

$E_k = 1{,}07 \cdot 10^{-16} \text{ J}$

b) E_k enk küçük $2E_k m_0 c^2$ nin yanında ihmal edilebilir

$\frac{6{,}62 \cdot 10^{-34}}{53{,}6 \cdot 10^{-12}} \cdot 0{,}86 = \sqrt{2 \cdot 1{,}07 \cdot 10^{-16} \cdot 9{,}1 \cdot 10^{-31}}\sin\theta$

$\sin\theta = 0{,}5 \quad \theta = 30°$

Soru: Bir parçacık ve bir [illegible] bağlı bağlı [illegible] yapılmaktadır. Yer küresi bir [illegible] yol alıyorlar ve bir [illegible] enerjiye sahiptir. [illegible] fotonun sahip [illegible]

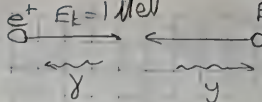

$\lambda = ?$

$2(E_k + m_0c^2) = 2h\nu$

$E_k + m_0c^2 = h\nu = h\frac{c}{\lambda}$

$\lambda = \frac{hc}{E_k + m_0c^2}$

$\lambda = \frac{hc}{1\,\text{MeV} + 2{,}51\,\text{MeV}}$

$\lambda = \frac{6{,}62 \cdot 10^{-34} \cdot 3 \cdot 10^{8}}{1{,}6 \cdot 10^{-13} \cdot 1{,}51 \cdot 10^{6}\,\text{eV}}$

$\lambda = 0{,}82$ pm

Sonuç: Bazı atom çekirdekleri uyarılmış durumdan temel hale geçerken fotonlar salarlar. Bu ışınlar X ışınlarını oluştururlar. Bir çekirdek bir foton saldığında kendisini tam yerde bulur.

a) $^{57}_{28}Co \longrightarrow ^{57}_{26}Fe$ kararsız olup

Bu demir çekirdeğinde kararlı hale ulaşmak için 14,4 keV'lik enerji taşıyarak bir foton salar. $m_{Fe} = 9{,}5 \cdot 10^{-26}$ kg

Geri tepen atomla enerji paylaşımı sonucu salınan fotonun enerjisi 14,4 keV'den az olur.

$14{,}4\,\text{keV} = E_k + h\nu$ $\qquad \frac{h\nu}{c} = P_{Fe}$

Klasik çekirdeğin kinetik enerji ifadesinden momentum cinsinden formülüne kullanabiliriz.

$\frac{1}{2}mv^2 = E_k$ $\qquad \sqrt{2E_k m_{Fe}} = P_{Fe}c$

$\frac{h\nu}{c} = P_{Fe} = \sqrt{2E_k m_{Fe}}$ $\qquad E_k = \frac{\left(\frac{h\nu}{c}\right)^2}{2m_{Fe}}$

Fotonun enerjisi momentumu $h\nu = 14{,}4$ keV olurken, çekirdeğin kinetik enerjisi yaklaşık olarak

$E_k = \frac{\left(\frac{h\nu}{c}\right)^2}{2m_{Fe}} = 1{,}96 \cdot 10^{-3}$ eV

b) Boru kristallerde gözlenen bir atom olmak üzere bir atom için gözlenen Doğal Frekans olduğu için ışıma enerjisi kaç eV olmuştu?

Formülde M_{Fe} yerine M_g ile değiştirilerek aynı durumda $E_k = 1,84 \cdot 10^{-25}$ eV olmuştu.

c) 14,6 kg'lık bir fotonun dünya yüzeyinden 20m. üzerinde yakalansak yükseldiği için enerji değişimi ne olur.



Yüksekte frekans daha yüksektir.

$\nu - \nu' = \Delta\nu = ?$

$$h\nu' = h\nu + \frac{h\nu}{c^2} \cdot g \cdot H$$

$$\Delta\nu = \nu' - \nu = \frac{\nu}{c^2} g H = 2,1 \cdot 10^3 \text{ Hz}$$

PARÇACIKLARIN DALGA ÖZELLİĞİ

Tüm parçacıkların dalga boyu vardır.

$$p = \frac{h\nu}{c} = \frac{h}{\frac{c}{\nu}} = \frac{h}{\lambda}$$

$$p = \frac{h}{\lambda}$$ } Tüm parçacıklar için geçerli

$$\lambda = \frac{h}{p} = \frac{h}{mv} \qquad m = \frac{m_0}{\sqrt{1 - \frac{v^2}{c^2}}}$$

Bu dalgalardan değişen bir nicelik yoktur. Sadece bir matematiksel ψ (psi) fonksiyonudur. Bu matematiksel olarak ileri sürülmüş olup bir fiziksel özelliği yoktur.

$|\psi|^2$ bize bir bilgi verir. Bir parçacığın bulunma olasılığıdır. 1 ile 0 arasındadır. 1 olursa parçacık o anda o yerde bulunuyor demektir. Dalga fonksiyonunun gerçek parçacığın o yerde bulunmasının ihtimaliyle ilgilidir.

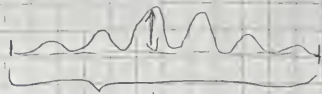

Genliğin en fazla olduğu yerde bulunma ihtimali en büyüktür.

Örnek: $m = 46$ g olan 30 m/s hızla hareket eden bir golf topunun de Broglie dalga boyu nedir?

Hız çok küçük olduğundan durgun kütlesi alınıyor.

$$\lambda = \frac{6{,}62 \cdot 10^{-34}}{46 \cdot 10^{-3} \cdot 30} = 4{,}8 \cdot 10^{-34} \text{ m}$$

Bu değer atomlar mertebesinde değildir. Bu yüzden dalga özelliği gözlenemez.

Örnek: $v = 10^7$ m/s $\quad m_e = 9{,}1 \cdot 10^{-31}$ kg.

$$\frac{6{,}6 \cdot 10^{-34}}{9{,}1 \cdot 10^{-31} \cdot 10^7} = 7{,}3 \cdot 10^{-11} \text{ m dir.}$$

Nanometredir.

$x = A\sin(kx - \omega t)$
$x = A\sin k(x - vt)$
$\lambda = \frac{v}{\nu}$ faz hızı

H atomunun yarıçapı $5,3 \cdot 10^{-11}$ m olduğu bu boyutlar gözlenebilir büyüklüktedir. e⁻'un dalga boyu mertebesinde yarıklar bulabiliyorum.

Şimdi De Broglie dalgasının hızını bulalım.

W: De Broglie Dalga Faz Hızı.

$\lambda = \frac{w}{\nu}$ $\quad \lambda = \frac{h}{mv}$

$w = \lambda\nu$ $\quad mc^2 = h\nu$

$= \frac{h}{mv} \cdot \frac{mc^2}{h} = \frac{c^2}{v}$ $\quad \nu = \frac{mc^2}{h}$

$w = \frac{c^2}{v}$

Bu sonuç ışık hızından büyüktür. Bu nasıl olur. ($w > c$). Ama bu hiçbir önem getirmiyor. Çünkü bu madde maliksaldır.

Faz Hızı: Aynı fazlı noktaların ilerleme hızıdır.

Grup Hızı: Bir dalga söz konusu olmalıdır.

Örnek olarak iki dalga ile alalım

$y_1 = A\cos[(wt - kx)]$
$y_2 = A\cos[(w + dw)t - (k + dk)x]$

İkisi aynı ardından ilerliyor. Toplam dalga

$y = y_1 + y_2 = 2A\cos(wt - kx)\cos\left(\frac{dw}{2}t + \frac{dk}{2}x\right)$

olur. Böyle bir fonksiyonu düşünürsek [illegible]

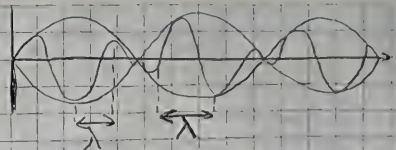

$k = 2\pi/\lambda$ idi.

Toplam dalga iletici-dir ve ip'te bakti-ğımızda iletimi sağ-lıyor.

W ne olur. $\lambda = \frac{w}{\nu}$ $\quad k = \frac{2\pi}{\lambda} = \frac{2\pi\nu}{w} = \frac{w}{W}$

$$W = \frac{w}{k}$$

ωt'li terim dışı, içeriyi de $\cos(\omega t - kx)$ ifa-de eder.

$\cos\left(\frac{d\omega}{2}t - \frac{dk}{2}x\right)$'in ilerleme hızı grup hızı olur. Diğer terme k denir.

$$\frac{d\omega}{2}t - \frac{dk}{2}x = sbt$$

$$\frac{d\omega}{2} - \frac{dk}{2}\frac{dx}{dt} = 0 \Rightarrow \frac{dx}{dt} = \frac{d\omega/2}{dk/2}$$

$u = \frac{d\omega}{dk}$ olur

Grup hızı

$W = \lambda\nu$ $\quad (\lambda = \frac{W}{\nu}$ idi)

$$k = \frac{2\pi}{\lambda} = \frac{2\pi\nu}{W} = \frac{\omega}{W}$$

$\omega = kW$ $\quad$ (Dalga hızı = tanıdık grup hızı ilişkisi)

$$u = \frac{d\omega}{dk} = W \text{ olur.}$$

Ortam özelliğine göre hız değişmiyorsa grup hızı $u = W$ 'dir.

$u = \frac{dw}{dk}$ idi. $\omega = 2\pi\nu$ $h\nu = mc^2$ $\nu = \frac{mc^2}{h}$

$$\omega = 2\pi \frac{c^2}{h} m_0 \left(1 - \frac{v^2}{c^2}\right)^{-\frac{1}{2}} \in v = \frac{c^2}{h} \frac{m_0}{\left(1 - \frac{v^2}{c^2}\right)^{\frac{1}{2}}}$$

$$k = \frac{2\pi}{\lambda} = \frac{2\pi}{h} m_0 v$$

$\lambda \hookrightarrow \frac{h}{p}$

$$u = \frac{dw/dv}{dk/dv} = \frac{\frac{2\pi c^2 m_0}{h}\left(-\frac{1}{2}\right)\left(-\frac{2v}{c^2}\right)\left(1 - \frac{v^2}{c^2}\right)^{-\frac{3}{2}}}{\frac{2\pi m_0}{h}\left[\left(1 - \frac{v^2}{c^2}\right)^{-\frac{1}{2}} - \frac{1}{2} v \left(-\frac{2v}{c^2}\right)\left(1 - \frac{v^2}{c^2}\right)^{-\frac{3}{2}}\right]}$$

* Bir dalga grubunun var. Bunu okuyucuların bilmesi için u'dan bahsedilmesi gerekir. Bu dalgaların fazı hızının neden c'den büyük olduğunu bağlı.

Sıvı hidrojen parçacıkları ile ağır maddeler dalgaları Ψ'nin bir anlamı yok.

THOMPSON en yüksek enerjide elektron demeti kullanmış ve sıfır 200 A mertebesinde incelemeler yapmıştır. Böylelikle polikristallerin bu parçacık olsaydı ya da ona uygun bölgeler ya da dağılmaların bulunduğu bir bölge, çeşitli şekillerde görülmüş yani ölçülmüştür.

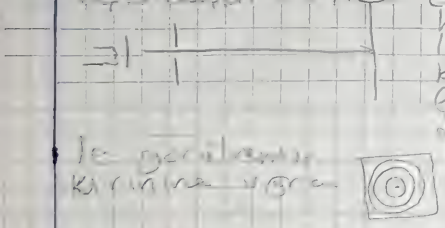

Ic içerisinde kırınıma uğrar

Dağılmasıdır

DAVIDSON - GERMER

DAVIDSON'un gözlemleri daha aydınlatıcıdır.

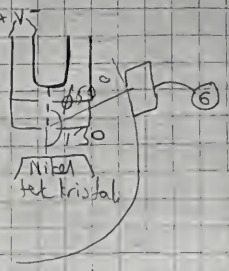

Belirli aralıklarda daha yeni ve daha şiddetli elektronlar düşünmüşler. Bunu bir sebep olmamış. Bir grafik metalden, oluşa çıkmış. Bunu bir grafik kaynaklar. Polikristal tekkristal olmuş. Sonuç alınmış.

$\varphi = 50°$'de en fazla e^- tespit edilmiş.

$n\lambda = 2d\sin\theta$'dan d'yi $0,91$ Å bulunmuştur.

$E_L = \frac{1}{2}mv^2$

$2E_L = mv^2$

$\sqrt{2E_k m} = \sqrt{m^2v^2} = p$ $\quad \lambda = \frac{h}{p}$ 'di

$$\lambda = \frac{h}{\sqrt{2mE_k}}$$

$$\lambda = \frac{h}{\sqrt{2mV_e}}$$ De Broglie tanımından

θ'ise $65°$ alınır. Bunları yerine koyduğumuz zaman bulunan sonuç

$\lambda = 1,66$ Å olur.

X ışınlarından bulunan ise $1,65$ Å

Acaba gönderdiğimiz e^-'ların enerjisini artırsak λ küçülecekti. Sonuçta yapılan girişimden neticeler değişir.

KUTU MODELİ

Kutularımızın boyutları L olsun. Parçacığımız duvarlarla esnek çarpışma yapsın. Yani enerji kaybetmiyor. Bu olay için kapalı sistem diyebiliyoruz yani duran dalgalar oluşuyor. Kutu boyutuyla bu şekilde tam katı dalga oluşuyor.

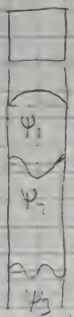

Bu durumda $\lambda = \frac{2L}{n}$ olacak tır.

$(n = 1, 2, 3 \ldots)$

$\lambda = \frac{2L}{n} = \frac{h}{p}$

olduğunu biliyoruz.

$p = \frac{hn}{2L}$ olacaktır.

$v \ll c$ olsun bu durumda $E_L = \frac{1}{2} m v^2$

$2E_L m = p^2$ $E_L = \frac{p^2}{2m}$ olur

$E_L = \frac{h^2 n^2}{4L^2} \frac{1}{2m} = \frac{h^2 n^2}{8L^2 m}$

Burada iki önemli nokta var:

PARÇACIĞIN ENERJİSİ 0 olamaz

PARÇACIĞIN MOMENTUMU HER değeri alamaz, KESİKLİDİR

Örnek: 0,1 nm genişliğinde bir kutu var. Bir e^- un enerji düzeylerini hesaplayınız.

$$E = \frac{(6{,}62\cdot10^{-34})^2 n^2}{3(9{,}1\cdot10^{-9})^2 9{,}1\cdot10^{31}} = 6{,}4\cdot10^{-18} n^2 J$$

$$= 38 n^2 eV$$

$E_1 = 38$ eV dir. $E_2 = 152$ eV $E_3 = 342$ eV $E_4 = 608$ eV

Örnek: $L = 10$ cm genişliğinde bir kutu var. İçinde bir parçacık 10 gr. olsun. $n=1$ $E = 5{,}5\cdot10^{-64}$ J

$$E = 5{,}5\cdot10^{-64} n^2 J$$

$E = \frac{n^2 h^2}{8mL}$ de yerine koydul

Hızı 1,3 m/s olsaydı $n=?$ olurdu.

$$E_k = \frac{1}{2} m v^2 = 5{,}5\cdot10^{-64} n^2$$

$$n = 10^{30}$$

$$n = 4{,}26\cdot10^{30} v$$

Görüldüğü gibi burada enerji düzeyleri oyle yoğunlaşıyor ki bunu yüzden sürekli gibi algılıyoruz.

Belirsizlik ilkesi

$u = \frac{dw}{dk}$ $w = \frac{\omega}{k}$

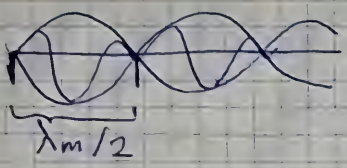

b) $\frac{\Delta k}{2} = k_m$

$\Delta k \Delta x = 2\pi \quad \frac{\Delta k}{2} = \frac{2\pi}{2\Delta x} \quad \Delta x = \frac{\lambda_m}{2}$

$$\psi(x) = \int_0^\infty g(k) \cos kx \, dk$$

$g(k)$: De Broglie dalgasının katkıda bulunan dalga sayısının genliği. Bu k ile değişir.

Bu integralin ismi Fourier İntegrali.

Fourier Dönüşümü:

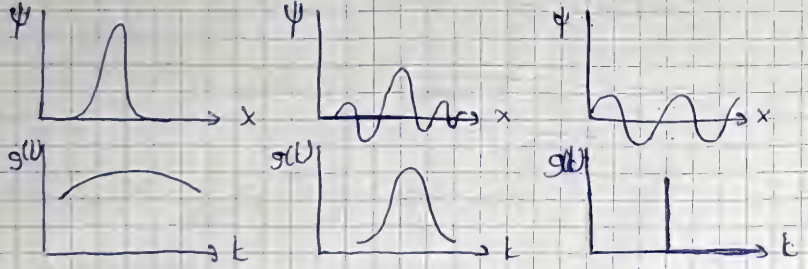

$\Delta x \Delta k$ çarpımı dalga fonksiyonuna bağlıdır.

$(\Delta x \Delta k)_{min} = \frac{1}{2}$

Bir parçacığın konumunu ve momentumunu aynı anda ölçmek istersek konum belirsizliğinin min. değeri ne olacaktır

$\Delta x \cdot \Delta p \geq ?$ Bunu araştıralım.

$\lambda = \frac{h}{p}$ idi. $k = \frac{2\pi}{\lambda}$

$\frac{2\pi}{k} = \frac{h}{p} \Rightarrow \frac{k}{2\pi} = \frac{p}{h} \Rightarrow \Delta k = \frac{2\pi}{h} \Delta p$

$\Delta x \cdot \frac{2\pi}{h} \Delta p = \frac{1}{2}$ $\Delta x \cdot \Delta p = \frac{h}{4\pi} = \frac{\hbar}{2}$ $\frac{h}{2\pi} = \hbar$ olsun

$\Delta x \cdot \Delta p \geq \frac{h}{4\pi}$

veya

$\nu = \frac{N}{t}$ $\Delta\nu = \frac{1}{\Delta t}$ $\Delta E = h\Delta\nu = \frac{h}{\Delta t}$

$\Delta E \Delta t = h$

$\Delta E \Delta t \geq \frac{h}{4\pi}$

SORU: Yapılan bir deneyde protonun konumu 10^{-11} m duyarlılıkla belirleniyor. Bu koşullarda bu belirlemeden ... sonra protonun konumundaki belirsizlik nedir?

Bunu bir deney olarak düşünelim

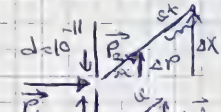

$\vec{p}_2$, $\vec{p}_1$'e ... midir? Hayır. Yön değiş miştir.

$\Delta p \Delta x \geq \frac{h}{4\pi}$ elimizde var.

$\Delta p \geq \frac{h}{4\pi d}$ yazabiliriz.

Benzer üçgenleri kullanarak $\frac{v}{\Delta t} = \frac{\Delta v}{\Delta x}$

$p = mv$ olduğundan

$\Delta p = m \Delta v$ yazabilirim.

Buradan $\Delta x = \frac{\Delta p}{m} t$ olur.

$\Delta x = \frac{h}{4\pi \Delta m} t$ Bu bana 1 s. sonraki ya da diğer bir andaki belirsizliği verir.

$\Delta x = 3\,km.$

Soru! Tipik bir atom çekirdeğinin yarıçapı $5 \cdot 10^{-15}$ m. mertebesindedir. 1 e$^-$'un bir atomun çekirdeğinin bir parçası olabilmesi için e$^-$'un enerjisinin alt limiti ne olmalıdır?

$\Delta p \Delta x \geq \frac{h}{4\pi}$ $\quad E_{min} = ?$



• çekirdeğinde olması için $\Delta x = 5 \cdot 10^{-15}$ mertebesinde olmalıdır.

$p \geq \frac{h}{4\pi \cdot 5 \cdot 10^{-15}}$ $\quad p^2c^2 = E_k^2 + 2E_k m_0 c^2$

$E_k > pc$'den büyük olmalı

$E_k \geq \frac{h \cdot c}{4\pi 5 \cdot 10^{-15}}$

E_k min için $\in$ $E_k \geq \frac{6{,}62 \cdot 10^{-34} \cdot 3 \cdot 10^8}{4\pi \cdot 5 \cdot 10^{-15}}$

$E_{k\,min} = 3{,}3 \cdot 10^{-12}\,J = \frac{3{,}3 \cdot 10^{-12}}{1{,}6 \cdot 10^{-19}} = 20\,MeV$

Soru: 1 H atomunun yarıçapı $5{,}3 \cdot 10^{-11}$ m'dir. 1e'un min enerjisinin değeri?

$\Delta E_m = 3\,eV$

Soru: 8/100 keV'lik X ışınları ile aynı uzunlukta de Broglie dalga boyuna sahip e$^-$'lerin kinetik enerjisi nedir.

$\lambda_x = \lambda_e = \frac{h}{p_e}$ $\quad \longrightarrow eV = h\nu = h\frac{c}{\lambda_x}$

$p^2c^2 = E_k^2 + 2E_k m_0 c^2$

Atom hızı düzgün olduğundan

$E_k = \frac{1}{2}mv^2 \quad 2E_k m = m^2v^2 = p^2$

$2E_k m = p^2$

buradan $E_k = 0,58\ eV$

Soru: 9/ Yeşil ışığın dalga boyu yaklaşık 550 nm.'dir. e⁻'un dalga boyunun bu değere ulaşması için yeterli hızlandırma potansiyel farkı kaç volttur?

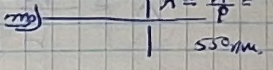

$E_k = Ve$

$p^2c^2 = E_k \quad 2E_k m = p^2$

$2Vem = p^2 \quad v = \frac{p^2}{2me}$

$v = 0.05\ V$

Soru: Bir okyanus dalgasının faz hızı: $W = \sqrt{\frac{g\lambda}{2\pi}}$ 'dir. ($g = 9,8\ m/s^2$). Bu dalgaların grup hızını bulun.

$u = ?$ $\quad \lambda = \frac{w}{v} \quad k = \frac{2\pi}{\lambda}$

$2\pi/k = \frac{w}{v} \Rightarrow W = \frac{w}{k}$

$u = \frac{dw}{dk} \quad w = k\sqrt{\frac{g}{k}} = (kg)^{\frac{1}{2}}$

$u = \frac{dw}{dk} = \frac{1}{2}g\,(kg)^{-\frac{1}{2}} = \frac{1}{2}\left(\frac{g}{k}\right)^{\frac{1}{2}}$

Soru: Durgun kütlesi m_0 momentumu p olan bir parçacığın toplam enerjisi $E = \sqrt{m_0^2 c^4 + p^2 c^2}$ ifadesinden hareketle De Broglie dalgalarının faz hızının $W = c\sqrt{1 + \left(\frac{m_0 c \lambda}{h}\right)^2}$ ile verileceğini gösterin.

$p = \frac{h}{\lambda}$ $\quad E = h\nu$ olmak üzere,

$$\lambda = \frac{W}{\nu} \qquad h\nu = h\frac{W}{\lambda} = \sqrt{m_0^2 c^4 + p^2 c^2}$$

$$= \sqrt{m_0 c^4 + \frac{h^2 c^2}{\lambda^2}}$$

$$W = \sqrt{m_0^4 c^4 \frac{\lambda^2}{h^2} + c^2} = c\sqrt{1 + \left(\frac{m_0 c \lambda}{h}\right)^2}$$

b) De Broglie dalga boyu 10^{-13} m olan bir e^-'un W'si ile u'sunu karşılaştırın.

$W = 1,00085\,c$ olur.

Grup hızı parçacık hızına eşittir.

$$\lambda = \frac{h}{p} = \frac{h}{mv} = \frac{h}{\frac{m_0}{(1 - \frac{v^2}{c^2})^{\frac{1}{2}}} v}$$

$$v^2 = \frac{1}{\frac{1}{c^2} + \frac{\lambda^2 m_0^2}{h^2}} \Rightarrow v = 2,997 \cdot 10^8 \text{ m/s}$$

$v = 0,999\,c$

$u = 0,999\,c$

Soru: De Broglie orijinal makalesinde $E=h\nu$ ve $p=h/\lambda$ ifadelerini elektromagnetik dalgalar yanı da hareketli parçacıklar için de geçerli olduğunu söyler. Bu ifadeleri kullanarak De Broglie dalgasının grup hızının

$$u=\frac{dE}{dp}$$ ile verileceğini gösteriniz.

Sonra $E=\sqrt{m_0^2c^4+p^2c^2}$ ifadesini kullanarak $u=v$ ile gösterilebileceğini ispatlayınız.

$$u=\frac{d\nu}{dk}=\frac{2\pi d\nu}{2\pi d\left(\frac{1}{\lambda}\right)}=\frac{h\,d\nu}{h\,d\left(\frac{1}{\lambda}\right)}=\frac{d(h\nu)}{d\left(\frac{h}{\lambda}\right)}$$

$u=\frac{dE}{dp}$ türevi alalım.

$$\frac{dE}{dp}=\frac{1}{2}\frac{2pc^2}{\sqrt{m_0^2c^4+p^2c^2}}$$

$$=\frac{mvc^2}{mc^2}=v$$

Soru: 1 e⁻ kristal içine girdiği zaman E_k'sı artar ve buna bağlı olarakta λ dalga boyu (De Broglie) kısalır.



54 eV'luk bir demet Ni'e gönderdiğimiz. Le Cun'un E_k'sı 26 eV değişmektedir (Hedefe girince)

a) Hedef içinde ve dışında e⁻'un hızlarını karşılaştır.

b) λ'larını karşılaştır.

$E_{k_0} = E_{k_1} - 26\,eV$

$54 + 26 = 80\,eV$ 'luk 2. ortamda kinetik enerjisi var.

$E_{k_1} = 80\,eV$.

$\frac{1}{2} m v_0^2 = E_{k_0}$

$\frac{1}{2} m v_1^2 = E_{k_1}$

$\Rightarrow \frac{v_1}{v_0} = \sqrt{\frac{E_{k_1}}{E_{k_0}}} = \sqrt{\frac{80}{54}} = \frac{\sqrt{40}}{3\sqrt{3}}$

b) $\sqrt{2mE_k} = p$

$\lambda_0 = \frac{h}{p_0} \qquad \lambda_1 = \frac{h}{p_1}$

$\frac{\lambda_1}{\lambda_0} = \frac{p_0}{p_1} = \sqrt{\frac{E_{k_0}}{E_{k_1}}} = \frac{3\sqrt{3}}{\sqrt{40}}$